1. Sistem fizikal bumi yang manakah berkaitan dengan maklumat berikut?. (PT3 2019)

• Organisma • Tumbuh-tumbuhan semula jadi

A Biosfera
B Litosfera
C Atmosfera
D Hidrosfera

2. Apakah lapisan atmosfera yang dapat dikaitkan dengan maklumat berikut?

Kapal Terbang Supersonik

A Eksosfera
B Mesosfera
C Stratosfera
D Troposfera

3. Rajah 1 menunjukkan struktur bumi.

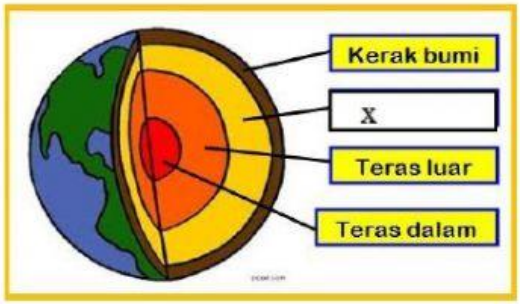

Rajah 1

Apakah lapisan struktur bumi yang bertanda X dalam rajah 1?.

A Mantel
B Teras luar
C Kerak bumi
D Teras dalam

4. Antara yang berikut, benua manakah yang terletak hampir dengan Malaysia?.

I Benua Asia
II Benua Eropah
III Benua Afrika
IV Benua Australia

A I dan II
B I dan IV
C II dan III
D III dan IV

HAK CIPTA © : Tidak dibenarkan mengeluar ulang mana-mana bahagian modul ini dalam sebarang bentuk atau cara sekalipun tanpa kebenaran bertulis daripada pihak Penulis dan Testpaper Academy
LIVEWORKSHEETS

5. Rajah 2 menunjukkan satu pergerakan ketak bumi.

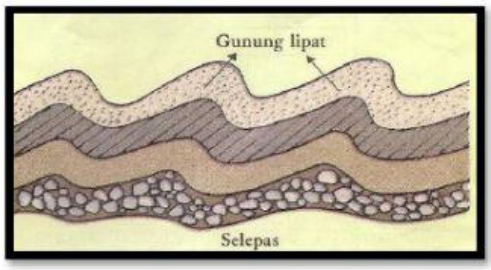

Rajah 2

Apakah yang menyebabkan pembentukan bentuk muka bumi tersebut?.

A Daya geseran
B Daya sesaran
C Daya mampatan
D Daya gelinciran

6. Mengapakah Danau Toba di Sumatera Utara menjadi tumpuan pelancong dari negara lain? (PT3 2019)

A Kepadatan penduduk rendah
B Kemudahan infrastruktur
C Kewujudan tasik volkanik
D Kepelbagaian budaya tempatan

7. Pilih maklumat yang benar berkaitan bentuk muka bumi berdasarkan pernyataan di bawah.

Pentas benua

I Di kelilingi oleh tasik
II Kawasan perairan yang cetek
III Kedalaman tidak melebihi 180 m
IV Terletak hampir dengan gerbang laut.

A I dan II
B I dan IV
C II dan III
D III dan IV

8. Berdasarkan maklumat di bawah ini, pilih jenis pinggir laut yang sesuai.

- Terbentuk akibat hakisan ombak
- Terdiri daripada batuan keras

A Teluk
B Tanjung
C Tombolo
D Pantai

HAK CIPTA © : Tidak dibenarkan mengeluar ulang mana-mana bahagian modul ini dalam sebarang bentuk atau cara sekalipun tanpa kebenaran bertulis daripada pihak Penulis dan Testpaper Syndrom
LIVEWORKSHEETS

9. Antara berikut, pulau manakah yang terletak di Pantai Barat Semenanjung Malaysia?

A Pulau Kapas
B Pulau Redang
C Pulau Tioman
D Pulau Pangkor

10. Peta 1 menunjukkan lokasi bentuk muka bumi di Malaysia.

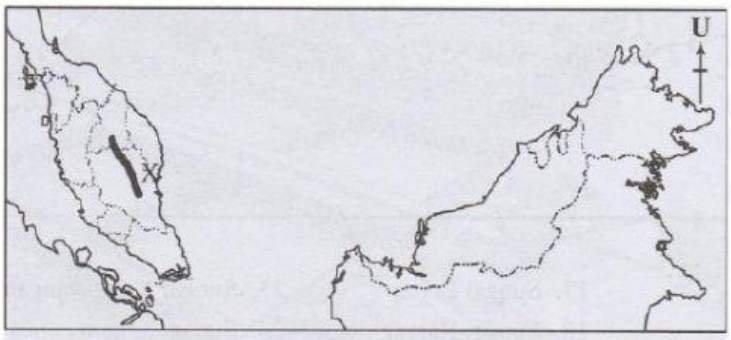

Peta 1

Berdasarkan peta di bawah ini, tanah tinggi yang bertanda **X** ialah

A Banjaran Tahan
B Banjaran Benom
C Banjaran Crocker
D Banjaran Trus Madi

11. Peta 2 menunjukkan lokasi bentuk muka bumi Malaysia.

Maklumat di bawah ini dapat dikaitkan dengan kawasan peta yang bertanda

Gunung Kinabalu

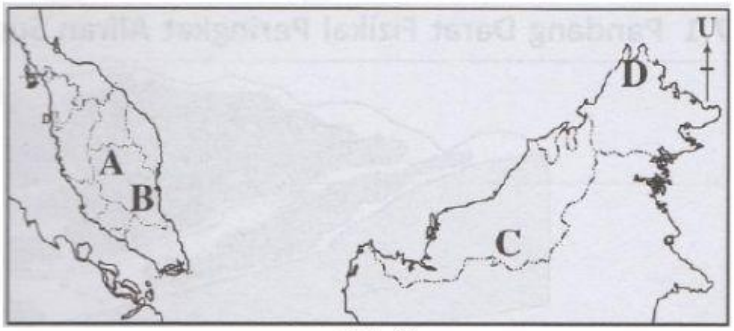

Peta 2

12. Pilih maklumat yang **benar** mengenai tanah tinggi di Malaysia

I Tanah tinggi berketinggian kurang 180 meter
II Gunung Tahan terletak di Semenanjung Malaysia
III Tanah tinggi di Malaysia terdiri daripada sistem gunung lipat
IV Tanah tinggi di Malaysia menganjur dari negara Indonesia

HAK CIPTA © : Tidak dibenarkan mengeluar ulang mana-mana bahagian modul ini dalam sebarang bentuk atau cara sekalipun tanpa kebenaran bertulis daripada pihak Penulis dan Testpaper.com.my
LIVEWORKSHEETS

A I dan II
B I dan IV
C II dan III
D III dan IV

13. Antara berikut, yang manakah bentuk muka bumi tanah pamah yang terdapat di Malaysia?

I Dataran
II Kaki bukit
III Pinggir laut
IV Lembangan sungai

A I dan II
B I dan IV
C II dan III
D III dan IV

14. Antara berikut, bentuk muka bumi yang manakah terbentuk hasil daripada runtuhnya gerbang laut?

A Teluk
B Batu tunggul
C Tunggul sisa
D Tebing tinggi

15. Apakah persamaan antara kedua-dua bentuk muka bumi berikut?

- Saliran
- Pinggir laut

I Pusat pelancongan
II Menjalankan aktiviti perikanan
III Tapak untuk membina pelabuhan
IV Kawasan perlombongan sumber mineral

A I dan II
B I dan IV
C II dan III
D III dan IV

16. Antara berikut, pandang darat fizikal yang manakah terbentuk di bahagian hulu sungai?

I Delta
II Tetambak
III Air terjun
IV Lurah berbentuk V

A I dan II
B I dan IV
C II dan III
D III dan IV

HAK CIPTA © : Tidak dibenarkan mengeluar ulang mana-mana bahagian modul ini dalam sebarang bentuk atau cara sekalipun tanpa kebenaran bertulis daripada pihak Penulis dan Testpaper.my
LIVEWORKSHEETS

17. Apakah faktor yang menyebabkan bentuk muka bumi dalam maklumat di bawah terjadi di peringkat hilir sungai?

- Tasik ladam
- Tetambak

I Isipadu air sungai banyak
II Beban semakin bertambah
III Air sungai menjadi perlahan
IV Sungai bercantum dengan tasik

A I dan II
B I dan IV
C II dan III
D III dan IV

18. Pilih pernyataan yang **benar**

	Sungai	**Sempadan**
A	Sungai Endau	Pahang - Johor
B	Sungai Pahang	Pahang- Kelantan
C	Sungai Kelantan	Kelantan - Perak
D	Sungai Kinabatangan	Sarawak - Sabah

19. Apakah persamaan antara lokasi-lokasi yang dinyatakan di bawah?.

Sungai Melaka
Sungai Sedim

A Pengairan pertanian
B Penjanaan kuasa hidroelektrik
C Rekreasi dan pelancongan
D Sempadan negeri

20. Apakah proses yang menyebabkan terhasilnya bentuk-bentuk muka bumi di bawah.

Pantai
Tetanjung

A Lelasan
B Pemendapan
C Luluhawa
D Hakisan

HAK CIPTA © : Tidak dibenarkan mengeluar ulang mana-mana bahagian modul ini dalam sebarang bentuk atau cara sekalipun tanpa kebenaran bertulis daripada pihak Penulis dan Testpaper.my
LIVEWORKSHEETS

BAHAGIAN

WWW.TESTPAPER.COM.MY

HAK CIPTA © : Tidak dibenarkan mengeluar ulang mana-mana bahagian modul ini dalam sebarang bentuk atau cara sekalipun tanpa kebenaran bertulis daripada pihak Penulis dan Testpaper.com.my
LIVEWORKSHEETS