SECRETARIA MUNICIPAL DE EDUCAÇÃO, CIÊNCIA E TECNOLOGIA

EDUCAÇÃO ILUMINA VIDAS

PREFEITURA DE CAMPOS UMA NOVA HISTÓRIA

ESCOLA MUNICIPAL CONSELHEIRO JOSINO	
LABORATÓRIO DE TECNOLOGIAS DIGITAIS	**Turma:** 5º ano
Aluno (a):	**Data:**
Professor (a): Andréa Jardim	**Código:** EF05MA17
Campo do Conhecimento: Matemática	

POLÍGONOS

NOME	Triângulo	Quadrilátero	Pentágono	Hexágono	Heptágono	Octógono	Eneágono	Decágono
LADOS	3	4	5	6	7	8	9	10

1- Observe cada polígono e complete:

a) O polígono 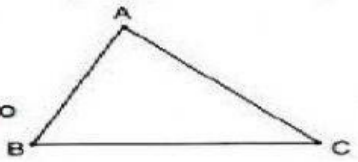

tem_____ lados

É chamado de _____

b) O polígono 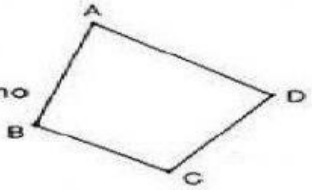

tem _____ lados

É chamado de _____

c) O polígono 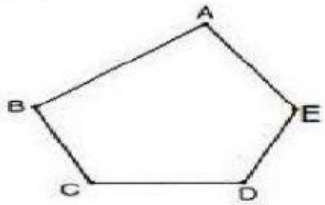

tem_____ lados

É chamado de _____

d) O polígono 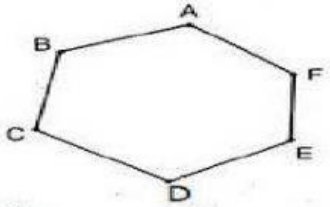

tem_____ lados

É chamado de_____

LIVEWORKSHEETS

2- Complete a 2ª coluna de acordo com a 1ª

(A)Polígonos de 5 lados	( ) eneágono
(B)Polígonos de 6 lados	( ) hexágono
(C)Polígonos de 7 lados	( ) decágono
(D)Polígonos de 8 lados	( ) pentágono
(E)Polígonos de 9 lados	( ) heptágono
(F)Polígonos de 10 lados	( ) octógono

3- Quantos lados tem?

a)pentágono?____ b)quadrilátero?____

c)hexágono?____ d)decágono?____

LIVEWORKSHEETS