NOTA 10

MATEMÁTICA NO DIA A DIA

1) CALCULE O PERÍMETRO:

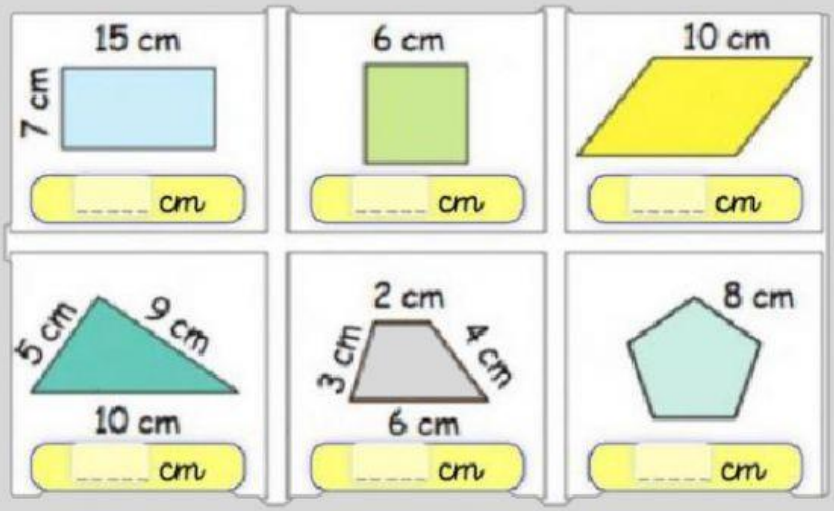

2) COLOQUE O NÚMERO DE VÉRTICES, ARESTAS E FACES.

SÓLIDOS GEOMÉTRICOS	NÚMERO DE VÉRTICES	NÚMERO DE ARESTAS	NÚMERO DE FACES
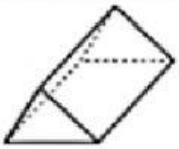			
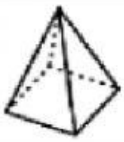			
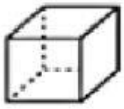			

Depois de tudo feito, confira os acertos clicando em "finish" e em seguida, "check my answers"

LIVEWORKSHEETS

3) DESCUBRA O TROCO. LIGUE A RESPOSTA CORRETA.

Preço	Paguei com	Recebi de troco
R$ 25,00	R$ 50,00	• R$ 15,00 • R$ 75,00 • R$ 3,00 • R$ 25,00
R$ 68,00	R$ 80,00	• R$ 22,00 • R$ 13,00 • R$ 148,00 • R$ 12,00
R$ 19,00	R$ 20,00	• R$ 1,00 • R$ 11,00 • R$ 39,00 • R$ 2,00
R$ 86,00	R$ 100,00	• R$ 186,00 • R$ 14,00 • R$ 86,00 • R$ 26,00

4) OBSERVE AS FICHAS ABAIXO E REGISTRE AO LADO O NÚMERO FORMADO APÓS A SOBREPOSIÇÃO DAS FICHAS:

1 0 0	2 0	8				
2 0 0	2 0	2				
8 0 0	3 0	8				
6 0 0	6 0	6				
1 0 0 0	2 0 0	5 0	4			
1 0 0 0	1 0 0	9 0	7			
1 0 0 0	0 0 0	1 0	1			

LIVEWORKSHEETS