Latihan Tahap Penguasaan – Sistem Rangka Manusia

Latihan objektif Sistem Rangka Dalam Manusia –Kenalpasti bahagian melalui soalan objektif

1 Rajah 1 menunjukkan bahagian rangka dalam bagi seorang manusia.

Rajah 1

Antara yang berikut, yang manakah tergolong dalam Rangka X?

I	Tulang tangan	**II**	Turus vertebra
III	Tulang rusuk	**IV**	Tulang kaki

A	I dan II	**B**	II dan III
D	III dan IV	**D**	I dan IV

2 Rajah 2 menunjukkan bahagian rangka dalam bagi seorang manusia.

Rajah 2

Antara yang berikut, yang manakah tergolong dalam Rangka Y?

I	Tulang tangan	**II**	Turus vertebra
III	Tulang rusuk	**IV**	Tulang kaki

A	I dan II	**B**	II dan III
D	III dan IV	**D**	I dan IV

3 Antara yang berikut, yang manakah tergolong dalam rangka paksi?

A	Lengkungan pektoral	**B**	Lengkungan pelvis
C	Tengkorak	**D**	Tulang kaki

4 Antara yang berikut, yang manakah bukan tergolong dalam rangka paksi?

A	Tengkorak	**B**	Tulang rusuk
C	Turus vertebra	**C**	Lengkungan pelvis

5 Antara yang berikut, yang manakah bukan tergolong dalam rangka apendaj?

A	Lengkungan pektoral	**B**	Lengkungan pelvis
C	Tengkorak	**D**	Tulang kaki

6 Antara yang berikut, yang manakah tergolong dalam rangka apendaj?

A	Tengkorak	**B**	Tulang rusuk
C	Turus vertebra	**C**	Lengkungan pelvis

7 Maklumat berikut ialah mengenai bahagian X bagi rangka dalam manusia.

- Bahagian yang menghubungkan tulang tangan dengan rangka paksi
- Terdiri daripada tulang klavikel dan tulang skapula

Antara yang berikut, bahagian manakah yang tergolong dalam kumpulan yang sama dengan X?

A	Tulang rusuk	**B**	Turus vertebra
C	Tengkorak	**D**	Tulang kaki

8 Maklumat berikut ialah mengenai bahagian Y bagi rangka dalam manusia.

LIVEWORKSHEETS

- Bahagian yang terbentuk daripada sepasang tulang punggung
- Menyokong berat badan, melindungi pundi kencing

Apakah Y?

A Tulang tangan
B Tulang rusuk
C Lengkungan pektoral
D Lengkungan pelvis

9 Maklumat berikut ialah mengenai bahagian P bagi rangka dalam manusia.

- Tulang ini bersambung dengan membentuk turus yang kuat
- Boleh melentur
- Terdiri daripada 33 ruas tulang kecil

Apakah P?

A Tulang tangan
B Tulang kaki
B Tulang rusuk
D Turus vertebra

10 Bahagian manakah yang berfungsi melindungi otak?

A Kranium
B Sternum
C Radius
D Tarsus

11 Rajah 1 menunjukkan salah satu bahagian dalam rangka paksi.

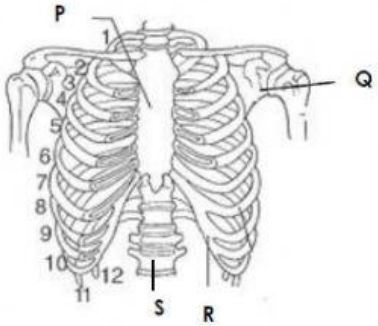

Rajah 1

Bahagian manakah yang dikenali sebagai rawan?

A P
B Q
C R
D S

12 Rajah 2 menunjukkan salah satu bahagian dalam rangka paksi.
Bahagian manakah yang dikenali sebagai sternum?

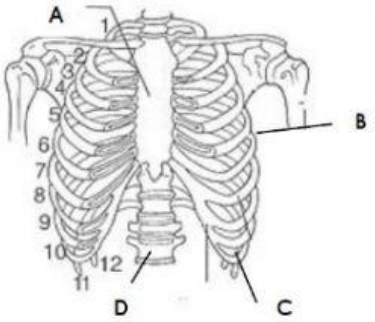

Rajah 2

LIVEWORKSHEETS

13 Rajah 3 menunjukkan bahagian yang terdapat dalam rangka manusia.

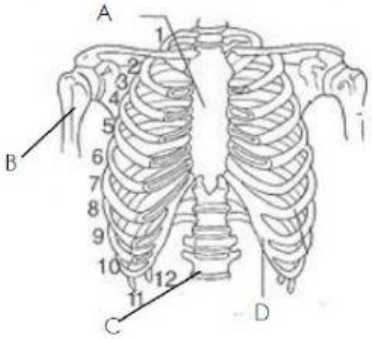

Rajah 3

Tujuh pasang tulang rusuk bersendi dengan X secara terus. Antara yang berikut, manakah merujuk kepada bahagian X?

14 Rajah 4 menunjukkan bahagian yang terdapat dalam rangka manusia.

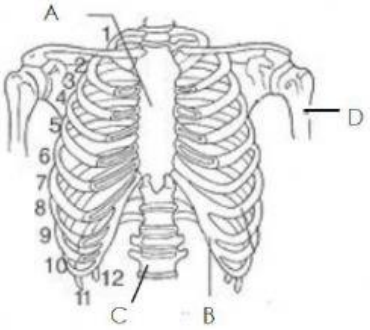

Rajah 4

Tiga pasang tulang rusuk bersambung secara tidak langsung dengan bahagian Y. Antara yang berikut, yang manakah merujuk bahagian Y?

15 Maklumat berikut mengenai tulang rusuk dalam rangka dalam manusia.

> *7 pasang tulang rusuk bersendi dengan **P** secara terus dan tiga tulang rusuk lagi bersambung secara tidak langsung oleh **Q** manakala dua pasang lagi tergantung bebas.*

Apakah P dan Q?

	P	Q
A	Klavikel	Vertebra toraks
B	Rawan	Klavikel
C	Sternum	Rawan
D	Vertebra toraks	Sternum

16 Bahagian tulang manakah yang menghubungkan tulang tangan dengan rangka paksi?

I Klavikel
II Femur
III Pungung
IV Skapula

A I dan II
B II dan III
D III dan IV
D I dan IV

17 Bahagian manakah melindungi saraf tunjang?

A Lengkungan pektoral
B Tulang rusuk
C Turus vertebra
D Tulang kaki

LIVEWORKSHEETS

18 Rajah 5 menunjukkan sebahagian daripada rangka apendaj.

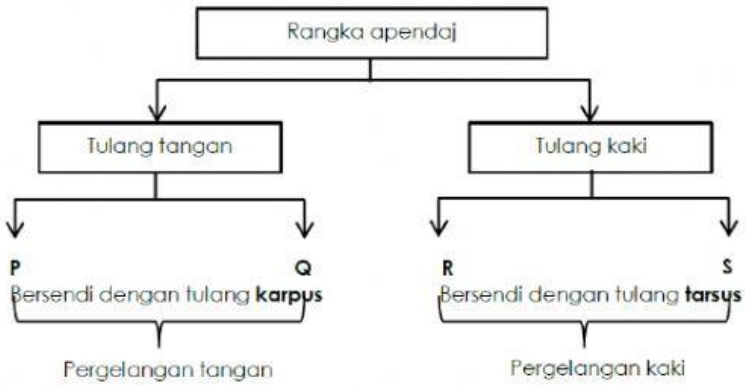

Antara yang berikut , manakah betul bagi P, Q, R dan S?

	P	Q	R	S
A	Radius	Tibia	Fibula	Ulna
B	Tibia	Fibula	Ulna	Radius
C	Fibula	Ulna	Radius	Tibia
D	Ulna	Radius	Tibia	Fibula

19 Rajah 6 menunjukkan sebahagian dalam sistem rangka manusia.

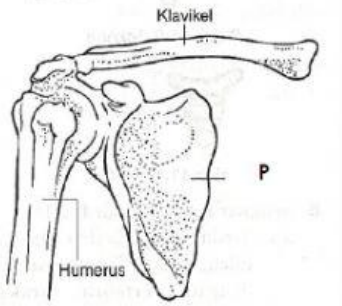

Apakah P?

A Pelvis
B Skapula
C Toraks
D Kranium

20 Rajah 6 menunjukkan sebahagian dalam sistem rangka manusia.

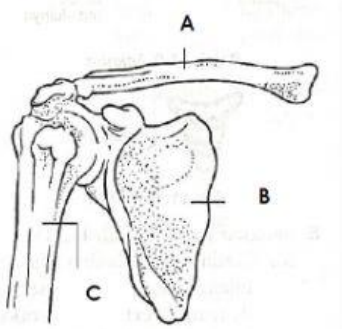

Rajah 6

Antara yang berikut, yang manakah **bukan** tergolong dalam lengkungan pektoral?

LIVEWORKSHEETS