A. 哪项的涂黑部分正确地显示有关分数？选一选

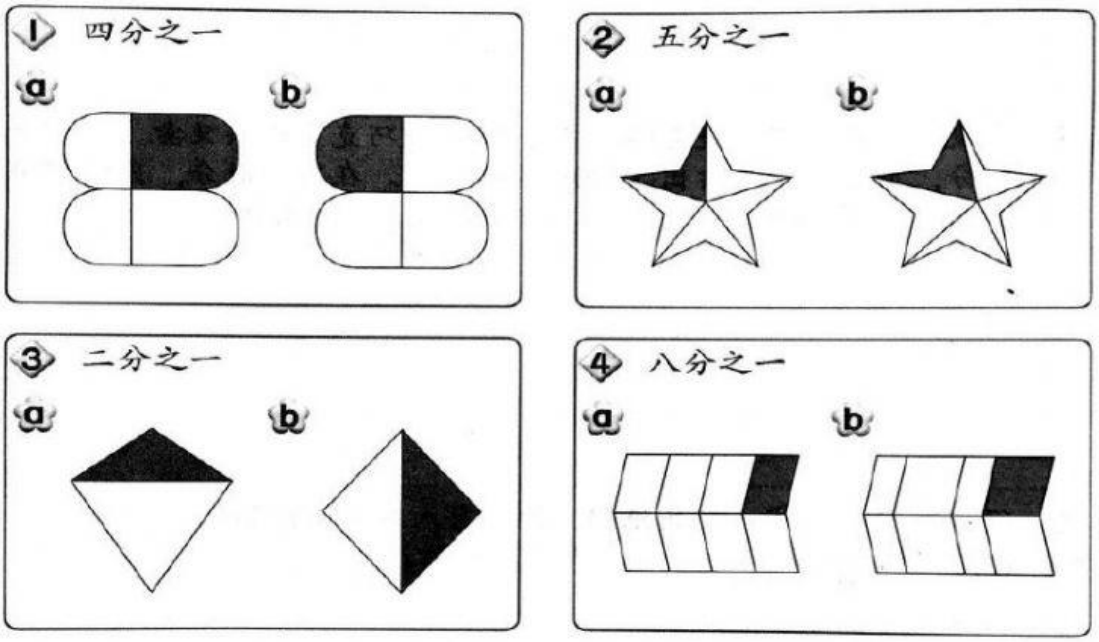

B. 选出正确的答案

十分之一	二分之一	八分之一
$\frac{1}{2}$	$\frac{1}{10}$	$\frac{1}{8}$

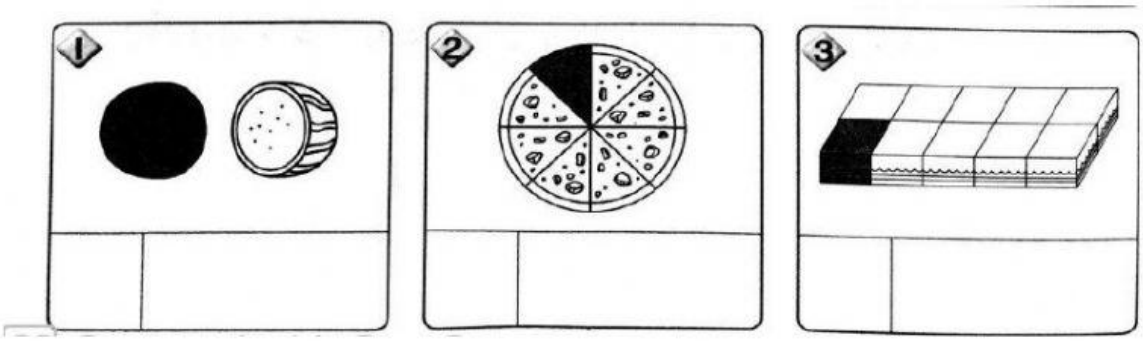

C. 哪个分数的值最大？选一选

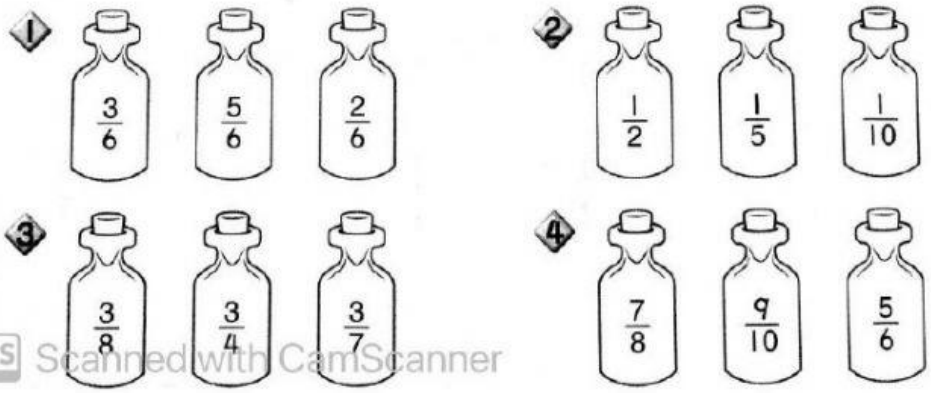

Scanned with CamScanner
LIVEWORKSHEETS

D. 在数轴上填写正确的小数。

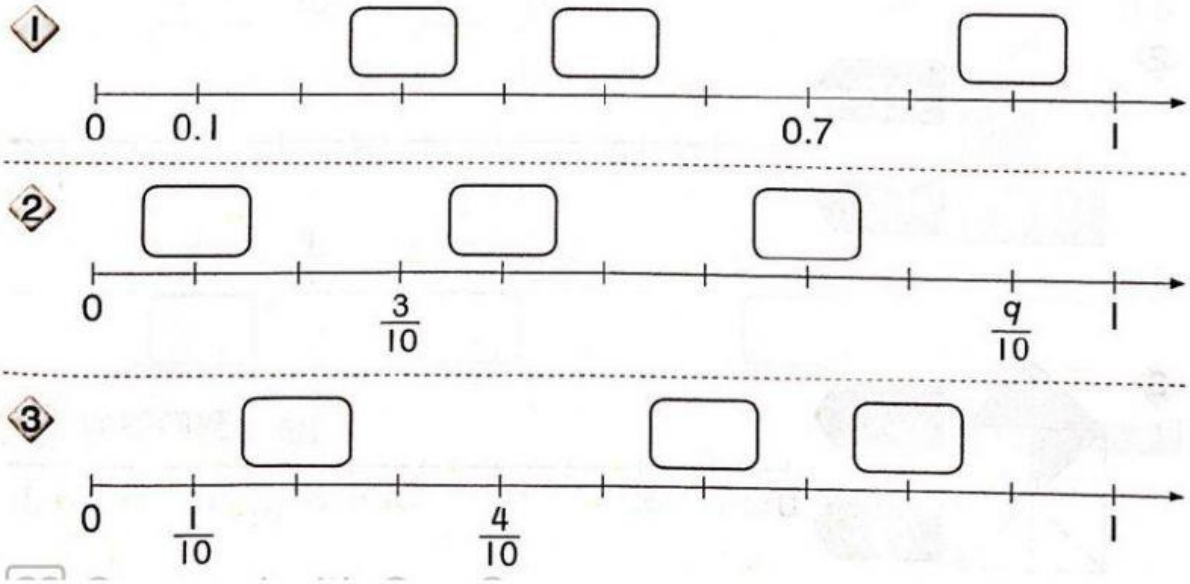

E. 哪个分数比较大？选一选

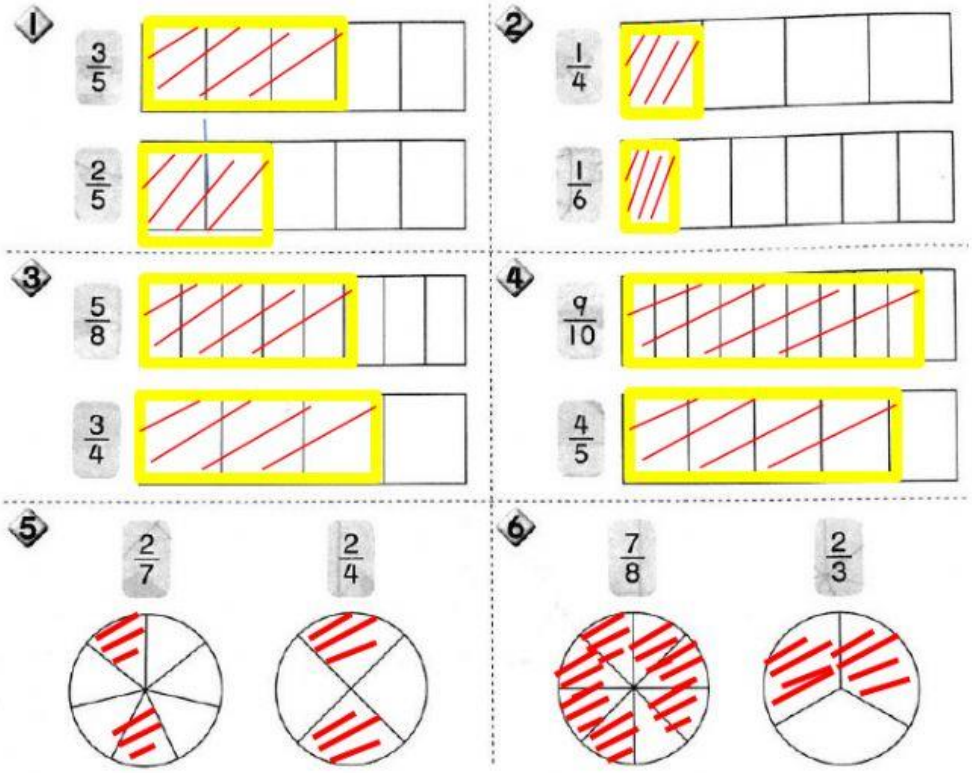

LIVEWORKSHEETS

F. 比较小数，在横线上填写正确的小数。

1



0.6

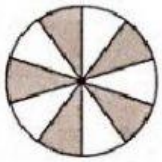

0.5

a _____ 比 _____ 大。

b _____ 比 _____ 小。

2



0.4

0.8

a _____ 比 _____ 大。

b _____ 比 _____ 小。

3

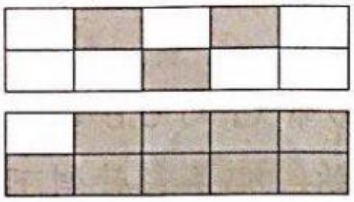

0.3

0.9

a _____ 比 _____ 大。

b _____ 比 _____ 小。

4

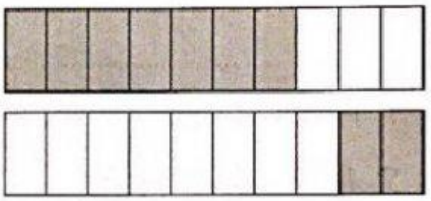

0.7

0.2

a _____ 比 _____ 大。

b _____ 比 _____ 小。

G. 选出较大的小数。

1 0.8 0.9

2 0.3 0.7

3 0.6 0.4

4 0.5 0.3

H. 选出较大得分数或小数。

1 0.1 $\frac{2}{10}$

2 $\frac{5}{10}$ 0.8

3 $\frac{7}{10}$ 0.6

4 0.4 $\frac{3}{10}$

LIVEWORKSHEETS

I. 选出正确的答案。

1	$\frac{1}{5}$	一分之五	五分之一
2	$\frac{1}{7}$	七分之一	一分之七
3	$\frac{3}{4}$	四分之三	三分之四
4	$\frac{2}{9}$	二分之九	九分之二
5	$\frac{8}{10}$	八分之十	十分之八

J. 选出最小的数值。

$\frac{3}{8}$	0.6

0.7	$\frac{2}{5}$

0.7	$\frac{4}{5}$

$\frac{1}{2}$	0.9

K. 把分数写成小数。

1	$\frac{4}{10}$	
2	$\frac{9}{10}$	
3	$\frac{3}{10}$	
4	$\frac{1}{10}$	
5	$\frac{8}{10}$	

LIVEWORKSHEETS