تمارين الصف الأول الابتدائي – الجزء الأول - الفصل الرابع : الأعداد حتى ١٠

الدرس (٤-٧) : مقارنة الأعداد حتى ١٠

س١: أحدد عدد العناصر في كل مجموعة ثم أحدد المجموعة الأكثر:

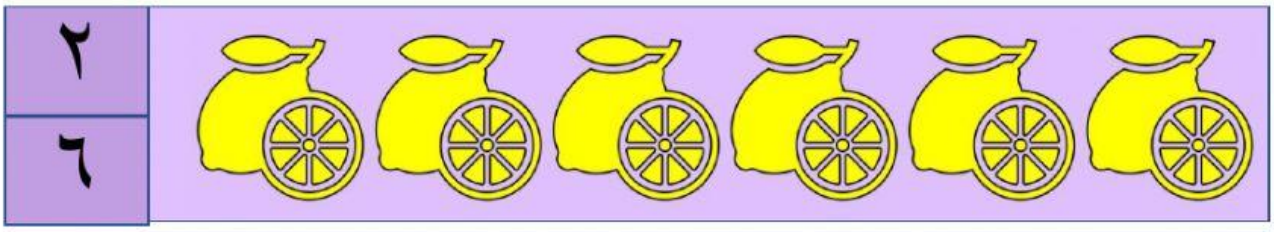

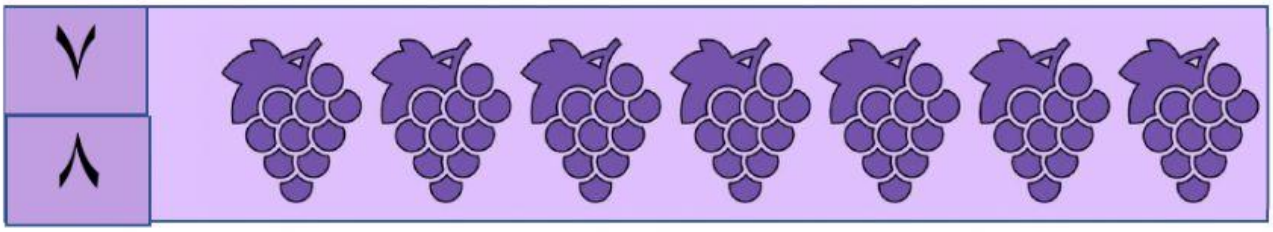

س٢: أحدد عدد العناصر في كل مجموعة ثم أحدد المجموعة الأقل:

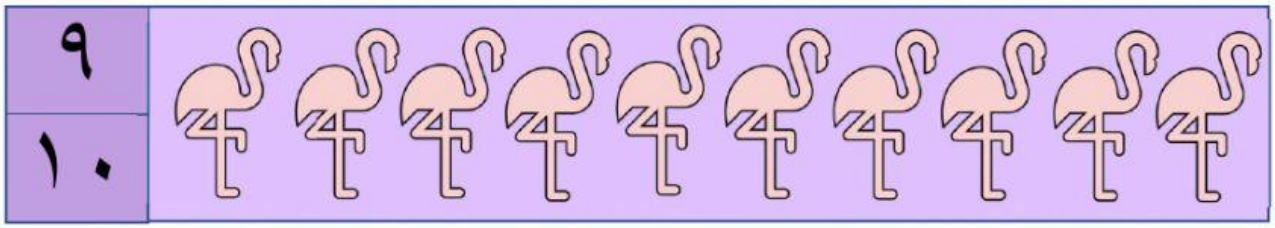



س٢: أحدد عدد العناصر في المجموعة ثم أحدد المجموعة التي تساويها :



إعداد: أ. زينب جاسم

LIVEWORKSHEETS