Collega e completa

denominatore	indica le parti uguali considerate;
numeratore	indica in quante parti uguali è diviso l'intero.

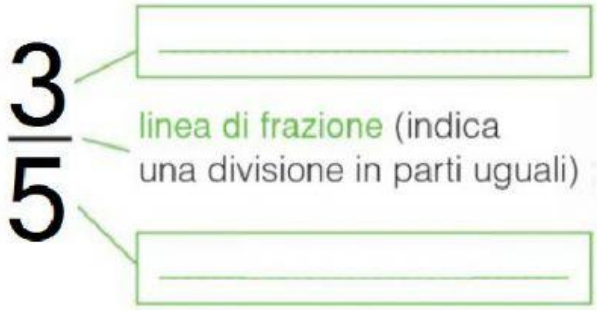

Prof.Consonni

LIVEWORKSHEETS

- Scrivi accanto ad ogni figura la frazione corrispondente alle parti colorate.

	FRAZIONE
	$\frac{\square}{\square}$
	$\frac{\square}{\square}$
	$\frac{\square}{\square}$
	$\frac{\square}{\square}$

Prof.Consonni

Collega la frazione al disegno corrispondente



$\frac{3}{10}$

$\frac{2}{9}$

LIVEWORKSHEETS

Collega la rappresentazione alla corrispondente frazione impropria e al corrispondente numero misto:

Frazione impropria	Rappresentazione	Numero misto
$\frac{4}{3}$		$3 + \frac{2}{3}$
$\frac{11}{3}$		$2 + \frac{1}{2}$
$\frac{5}{2}$		$1 + \frac{1}{3}$

Prof.Consonni

LIVEWORKSHEETS

- Se il numeratore è maggiore del denominatore si tratta di una frazione:

☐ propria ☐ impropria ☐ apparente

- Se il numeratore è un multiplo del denominatore si tratta di una frazione:

☐ propria ☐ impropria ☐ apparente

- Se il numeratore è minore del denominatore si tratta di una frazione:

☐ propria ☐ impropria ☐ apparente

Prof.Consonni

LIVEWORKSHEETS

- Completa l'esercizio selezionando solo le frazioni proprie.

$\frac{3}{5}$ $\frac{7}{8}$ $\frac{7}{7}$ $\frac{10}{15}$ $\frac{5}{4}$ $\frac{3}{6}$

- Completa l'esercizio selezionando solo le frazioni improprie.

$\frac{3}{5}$ $\frac{11}{7}$ $\frac{13}{8}$ $\frac{19}{6}$ $\frac{1}{2}$ $\frac{4}{3}$

- Completa l'esercizio selezionando solo le frazioni apparenti.

$\frac{10}{10}$ $\frac{14}{7}$ $\frac{4}{9}$ $\frac{18}{3}$ $\frac{7}{7}$ $\frac{8}{19}$

Prof.Consonni

LIVEWORKSHEETS

• Completa la tabella inserendo al numeratore le giuste cifre.

Proprie	Improprie	Apparenti
$\frac{2}{4}$	$\frac{7}{4}$	$\frac{8}{4}$
$\frac{\quad}{12}$	$\frac{\quad}{12}$	$\frac{\quad}{12}$
$\frac{\quad}{15}$	$\frac{\quad}{15}$	$\frac{\quad}{15}$
$\frac{\quad}{9}$	$\frac{\quad}{9}$	$\frac{\quad}{9}$

Prof.Consonni

LIVEWORKSHEETS

- Osserva le figure geometriche ed esegui le operazioni per calcolare le frazioni equivalenti a quelle date.

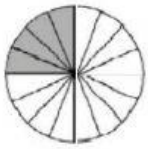

$$\frac{4}{16} \begin{matrix} \rightarrow : 4 \\ \rightarrow : 4 \end{matrix} = \frac{\quad}{\quad}$$

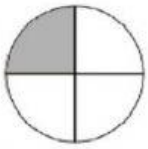

La frazione 4/16 è equivalente a ...../.....

$$\frac{8}{8} \begin{matrix} \rightarrow : 2 \\ \rightarrow : 2 \end{matrix} = \frac{\quad}{\quad}$$

La frazione 8/8 è equivalente a ...../.....

LIVEWORKSHEETS

Semplifica il più possibile le seguenti frazioni:
(dividendo contemporaneamente il numeratore ed il denominatore per uno stesso numero)

$$\frac{2}{16} = \frac{\ldots\ldots}{\ldots\ldots} \qquad \frac{9}{21} = \frac{\ldots\ldots}{\ldots\ldots} \qquad \frac{14}{12} = \frac{\ldots\ldots}{\ldots\ldots}$$

$$\frac{2}{12} = \frac{\ldots\ldots}{\ldots\ldots} \qquad \frac{4}{18} = \frac{\ldots\ldots}{\ldots\ldots} \qquad \frac{4}{10} = \frac{\ldots\ldots}{\ldots\ldots}$$

Prof.Consonni

LIVEWORKSHEETS

• Calcola il valore di ogni frazione



$\frac{2}{5}$ di 10 → ..... : ..... = ...

→ ..... x ..... = ...



$\frac{3}{4}$ di 12 → ..... : ..... = ...

→ ..... x ..... = ...

Prof.Consonni

LIVEWORKSHEETS