وحدة الهندسة المهارة : حساب مساحة الشكل

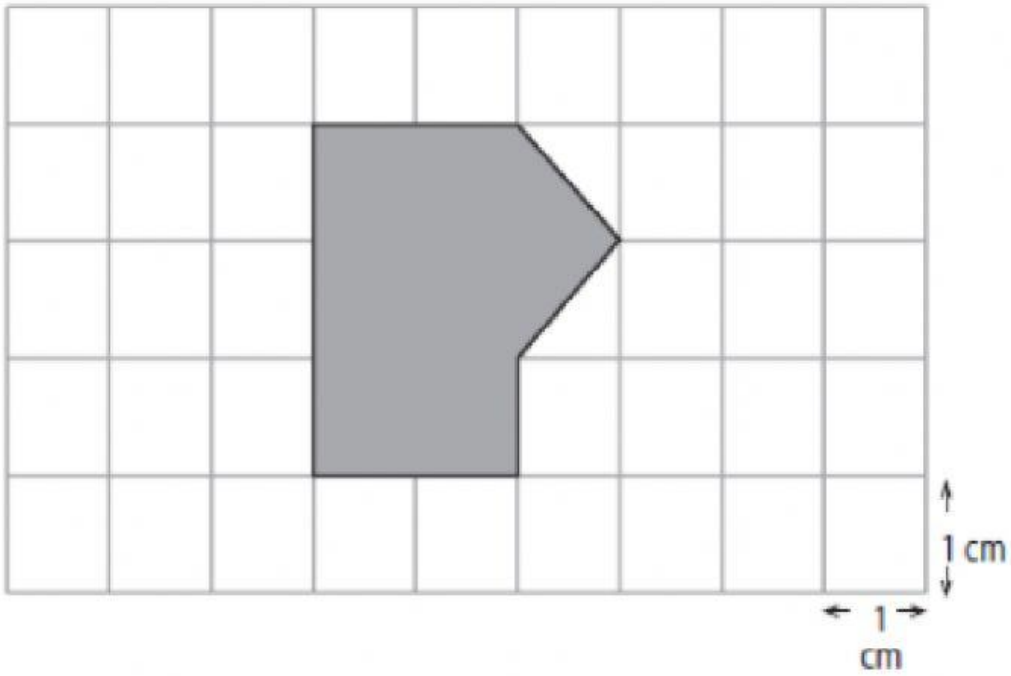

الشبكه البيانية التالية ابعادها تتكون من مربعات طول ضلع كل منها هو 1 سم

ماهي مساحه الشكل المظلل

المساحه هي:_____ سم مربع

LIVEWORKSHEETS

اي الاشكال التالية له اكبر مساحه؟

Ⓐ 

Ⓑ 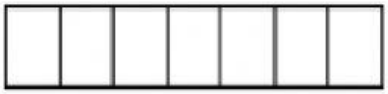

Ⓒ 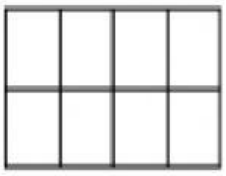

Ⓓ 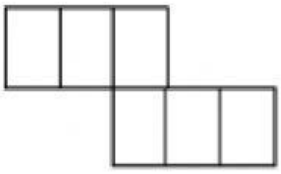

LIVEWORKSHEETS

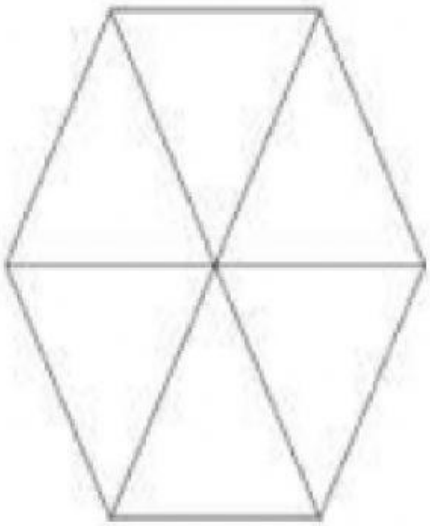

تم تقسيم هذا السداسي الى 6 اجزاء

هذه الاجزء هي

A مثلثات

B مربعات

C خماسيات

D مستطيلات

LIVEWORKSHEETS

اي من المستطيلات التالية ليس مقسما الى 4 اجزاء متساوية

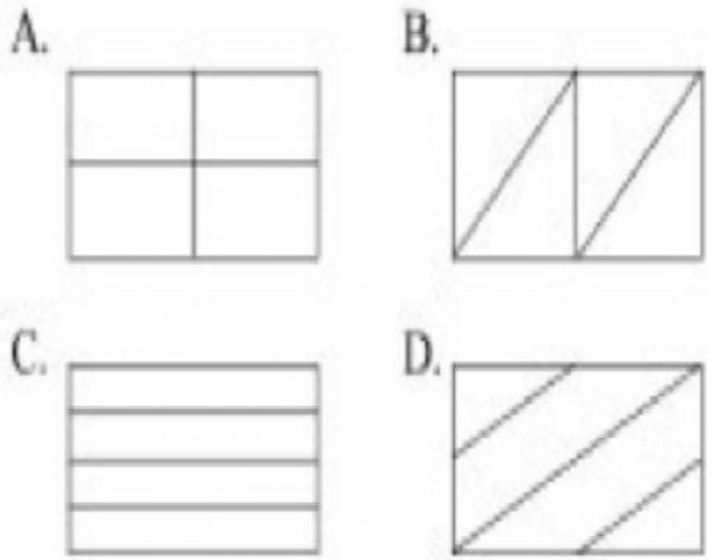

LIVEWORKSHEETS