SAINS : Tahun 2 **Nama:**

Tajuk : Konduktor dan Penebat Elektrik **Kelas :**

Sila tonton video dibawah sebelum menjalankan aktiviti:



Pilih konduktor elektrik (Klik pada smiley).



LIVEWORKSHEETS

Pilih penebat elektrik (Klik pada smiley).

LIVEWORKSHEETS

Litar Elektrik



Litar lengkap

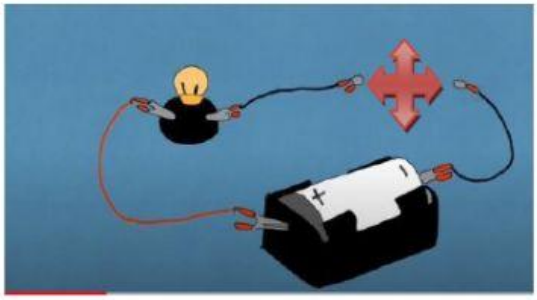

Litar tidak lengkap

Klik pada jawapan yang betul.

1. Mentol hanya akan menyala jika litar elektrik lengkap.	

2. Apabila suis digantikan dengan penebat elektrik, mentol akan menyala.	

LIVEWORKSHEETS

3. Apabila suis digantikan dengan konduktor elektrik, mentol akan menyala.	
4. Apabila sudu plastik menggantikan suis , mentol tidak akan menyala	
5. Apabila jarum menggantikan suis , mentol tidak akan menyala	
6. Apabila tin Pepsi menggantikan suis , mentol akan menyala	
7. Apabila cawan kertas menggantikan suis , mentol tidak akan menyala	
8. Apabila kunci menggantikan suis , mentol tidak akan menyala	
9. Apabila kadbod menggantikan suis , mentol akan menyala	
10. Apabila daun menggantikan suis , mentol tidak akan menyala	

LIVEWORKSHEETS