Ficha de Matemática

2º ano

Nome:_____**Data:**___/___/_____

1. Observa este sólido e completa:

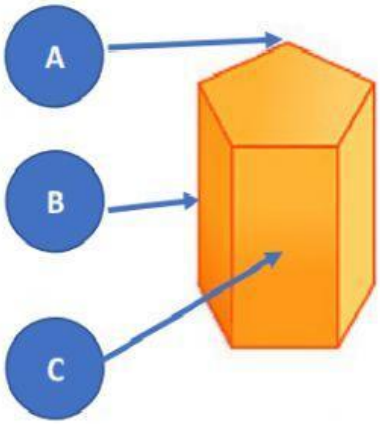

- Sou um _____.
- Tenho _____ faces.
- Tenho _____ arestas.
- Tenho _____ vértices.
- A minha base é um _____.

2. O gráfico refere-se ao número de flores vendidas por uma florista num fim de semana.

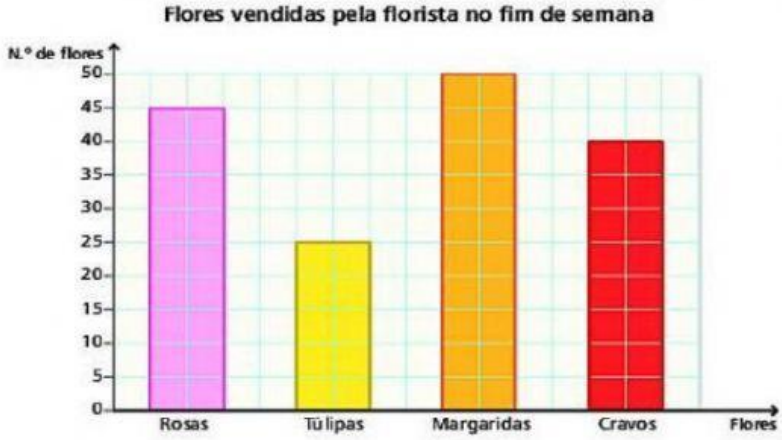

Assinala com X as afirmações verdadeiras.

- [ ] A florista vendeu mais rosas do que cravos.
- [ ] Foram vendidas 50 margaridas.
- [ ] Venderam-se seis tipos de flores diferentes.
- [ ] A florista vendeu mais de 100 flores.
- [ ] As flores menos vendidas foram as túlipas.
- [ ] As flores mais vendidas foram as rosas.

LIVEWORKSHEETS

3. Decompõe os números de acordo com os exemplos:

145 = ___C + ___D + ___U

823 = _____

619 = _____

561 = _____

795 = _____ + _____ + ____

241 = _____

452 = _____

915 = _____

4. Observa as figuras seguintes.

4.1 Regista o perímetro e a área de cada uma delas.

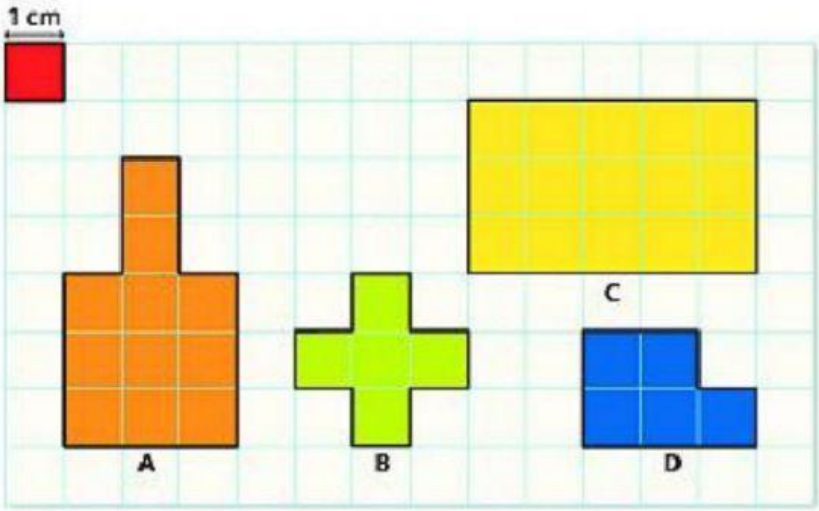

A
P = _____
A = _____

C
P = _____
A = _____

B
P = _____
A = _____

D
P = _____
A = _____

4.2 Completa a afirmação.

A figura _____ tem o mesmo perímetro do que a figura _____, mas as duas figuras têm _____ diferentes.

LIVEWORKSHEETS

5. Arrasta as horas e coloca-as no relógio que lhes corresponde.

11h45min	**11h30min**	**7:00**	**1:45**
17h15min	**14h**	**4:30**	**9:15**

5.1. Lê e indica se a afirmação é verdadeira (V) ou falsa (F).

a) Se a Maria for almoçar ao meio-dia e voltar para as aulas às 13h30, significa que teve 1h30 de intervalo para almoço. ..... ☐

b) A Joana chegou à sala de cinema às 19h, mas o filme só começou às 19h12min. Esperou 15 minutos pelo início do filme..... ☐

6. Indica a resposta correta.

230 + 45 =	**485 – 241 =**	**3 x 7 =**	**6 x 6 =**
475	244	21	36
275	444	27	32

7. Depois de toda a ficha resolvida, clica no link e vê o vídeo.

LIVEWORKSHEETS