ATIVIDADE DE REVISÃO DE MATEMÁTICA

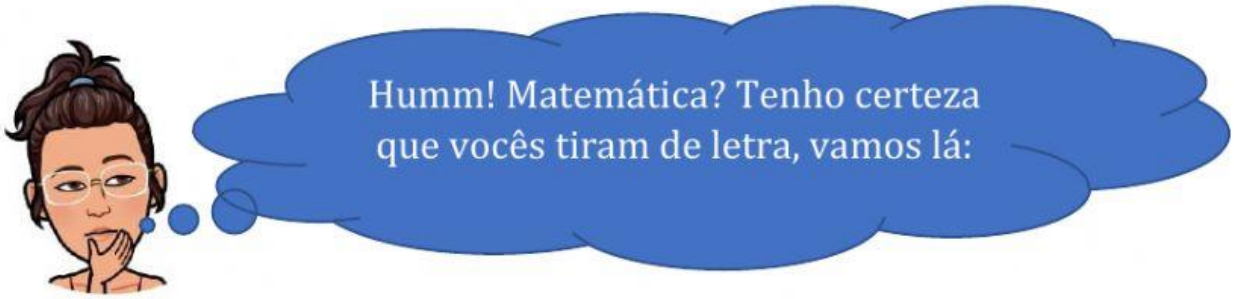

01. Um motoboy precisa entregar uma encomenda a Tia Gilvana, baseando-se pelo mapa abaixo é mais rápido ele fazer a entrega:

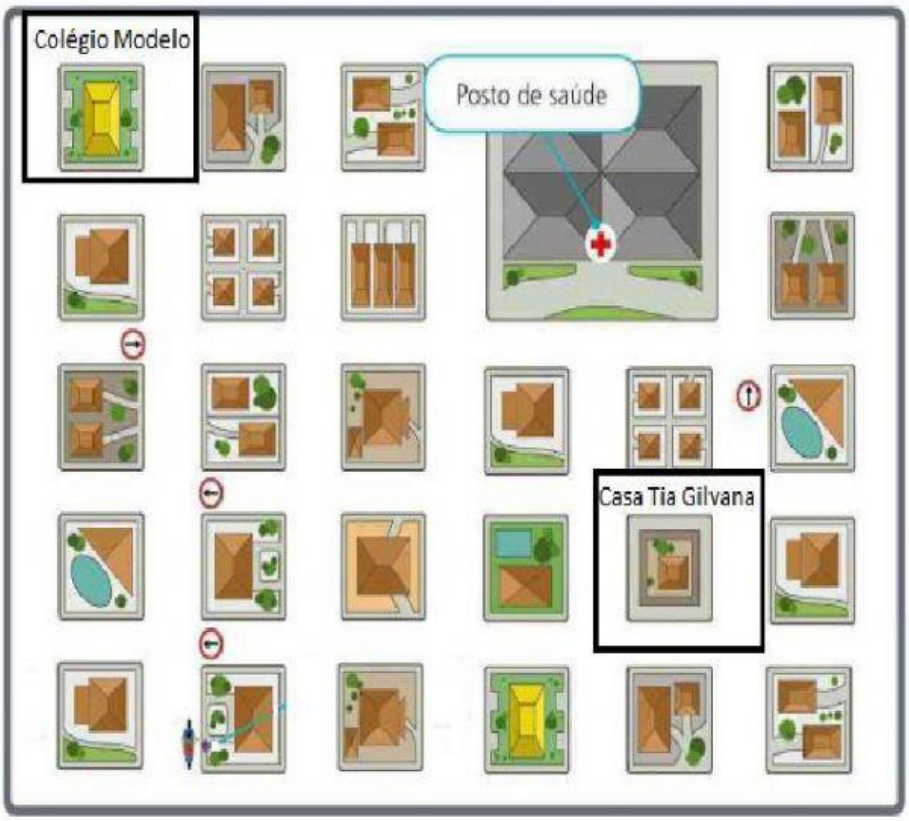

( ) na casa dela

( ) no colégio Modelo

( ) no posto de saúde

LIVEWORKSHEETS

02. Uma professora postou a imagem ao lado, e perguntou a seus alunos, qual a resposta:

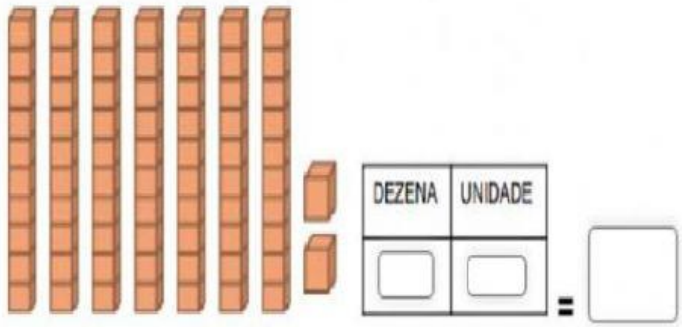

( ) 7 dezenas 2 unidades = 72

( ) 6 dezenas 2 unidades = 62

( ) 7 centenas 2 unidades = 702

( ) 7 centenas 2 dezenas = 720

Ligue corretamente os objetos a sua forma:

1

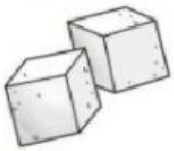

círculo

2

cone

3

cilindro

4

cubo

5

pirâmide

6

Paralelepípedo

LIVEWORKSHEETS

Maria e Ângela estão brincando com um dado, a possibilidade de sair o número 6 é de:

( ) 6 vezes

( ) 1 vez

( ) 2 vezes

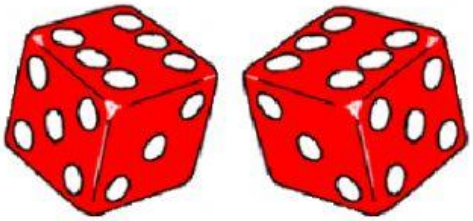

Tia Gilvana mandou fazer três bonecas conforme a imagem ao lado. Baseada na imagem a figura maior é:



( ) a figura B

( ) a figura A

( ) a figura C

( ) todas tem o mesmo tamanho

Tomando por base a tabela ao lado, responda: Quem é o maior e o menor?

Tabela 2	
Nome	**Altura (cm)**
Felipe	132
Alice	127
Maria Eduarda	135
João	140
Ana Clara	122

( ) Alice – Felipe

( ) Maria Eduarda – João

( ) João – Ana Clara

LIVEWORKSHEETS

O desenho ao lado representa:

( ) Tabela

( ) Gráfico

( ) Planilha

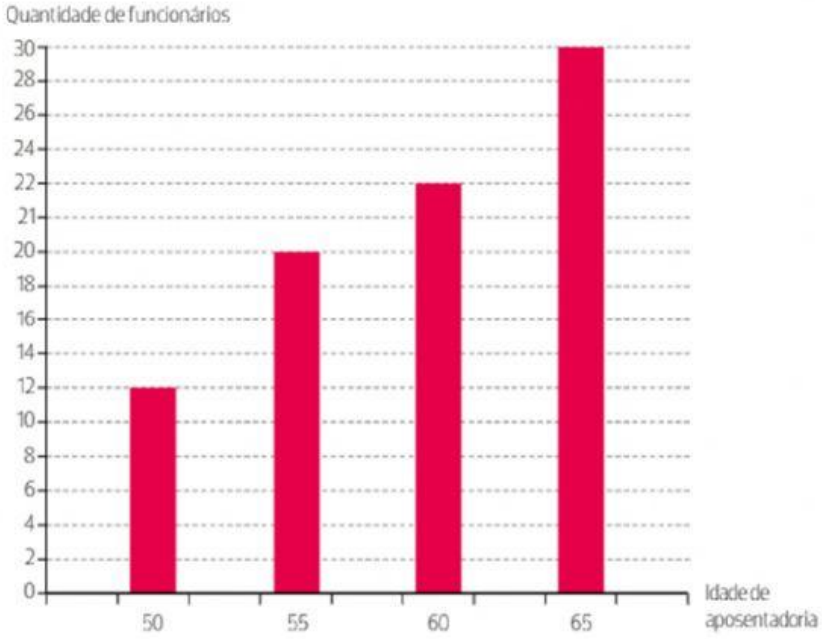

SOMANDO COM AS PEÇAS DO DOMINÓ

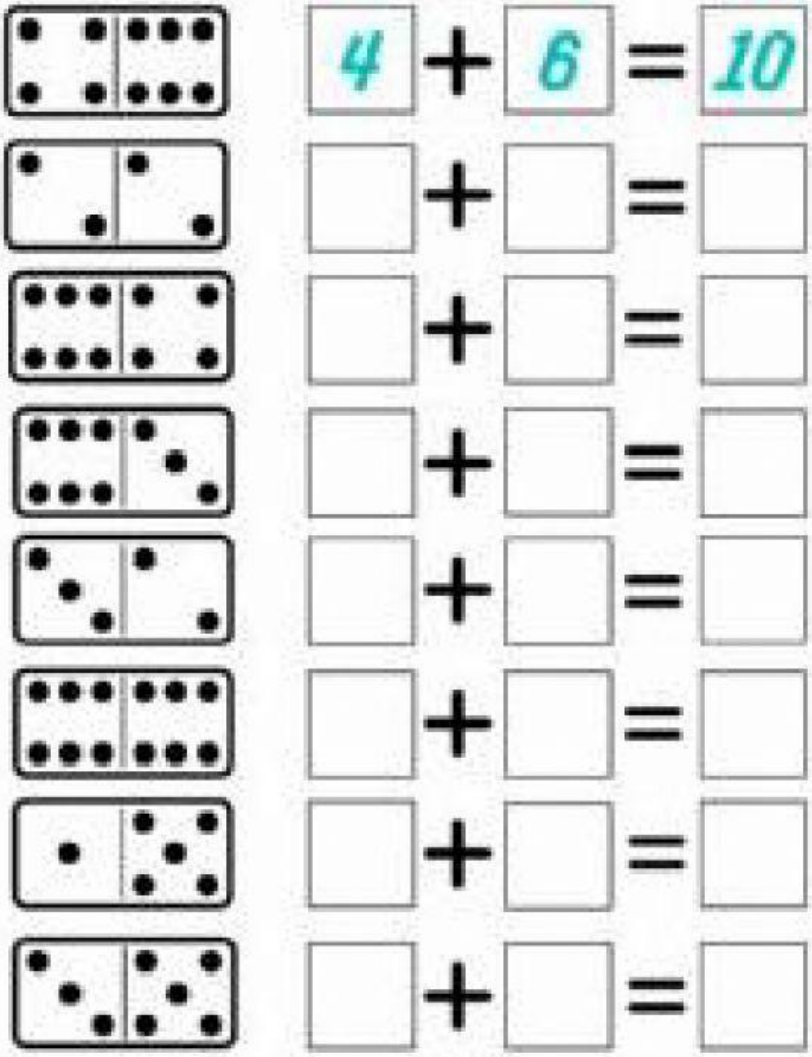

LIVEWORKSHEETS

Represente com algarismos as quantidades do material dourado representados:

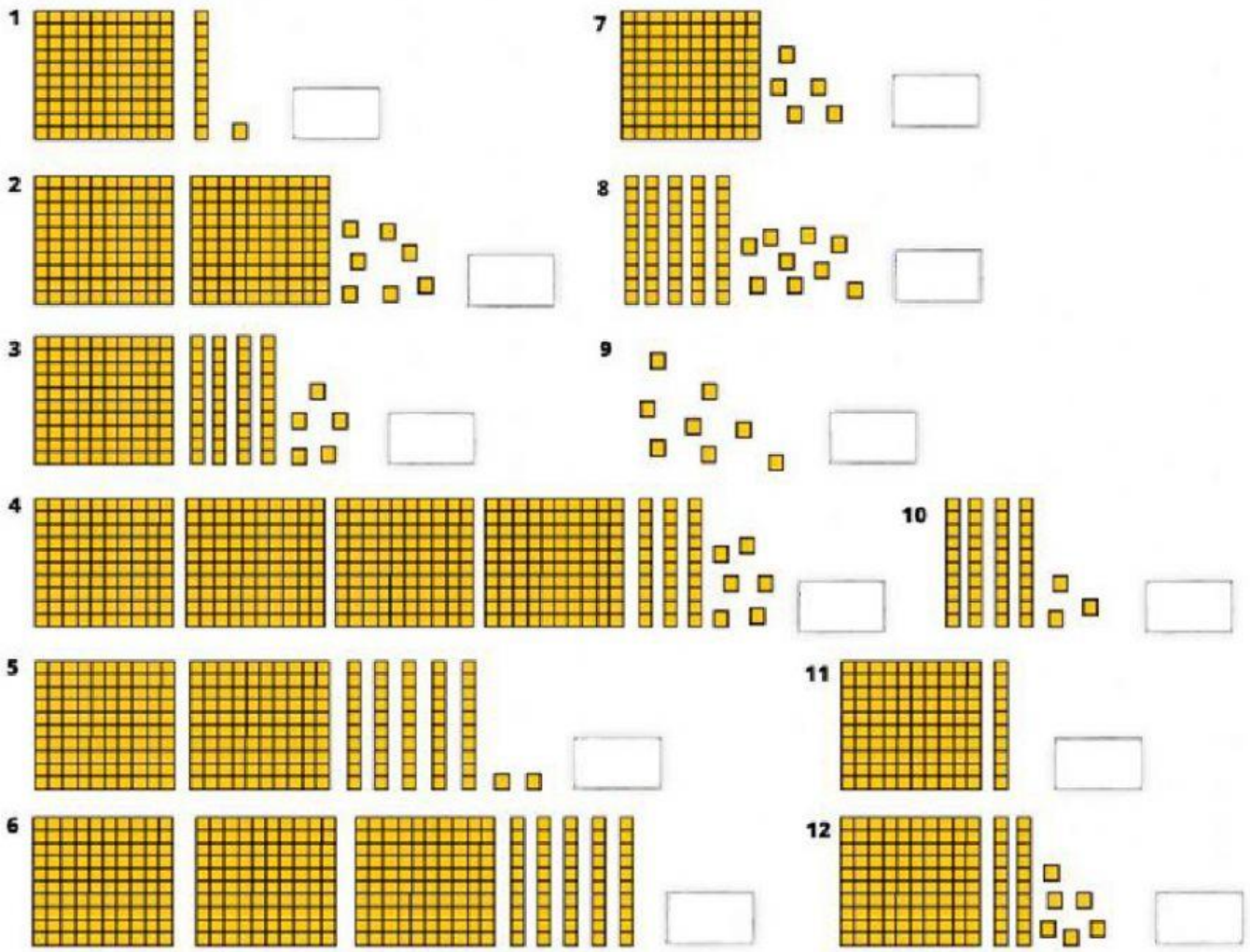

LIVEWORKSHEETS

RESOLVA AS SUBTRAÇÕES:

8 - 6 = ☐ 8 - 2 = ☐

5 - 4 = ☐ 4 - 3 = ☐

3 - 3 = ☐ 7 - 2 = ☐

7 - 3 = ☐ 6 - 4 = ☐

9 - 4 = ☐ 5 - 0 = ☐

6 - 3 = ☐ 4 - 2 = ☐

3 - 2 = ☐ 9 - 3 = ☐

2 - 1 = ☐ 8 - 5 = ☐

LIVEWORKSHEETS

DESAFIO MATEMÁTICO

(FONTE: PINTEREST)

OBSERVE A FIGURA ABAIXO. COLOQUE OS NOMES(ARRASTE) DE ACORDO COM AS DICAS



- JUCA FICOU BEM EM FRENTE DE NINA.
- TIAGO FICOU IMEDIATAMENTE À DIREITA DE NINA
- JOÃO, QUE ESTAVA ENTRE(NO MEIO) JUCA E CARLOS FICOU BEM EM FRENTE A TIAGO.
- DEPOIS DE TIAGO VEIO A MANUELA.
- ENTRE CARLOS E NINA ESTAVA MARCOS.
- LÚCIA É A QUE ESTÁ DE ÓCULOS

CARLOS
NINA
TIAGO
JOÃO
MANUELA
MARCOS
LÚCIA

LIVEWORKSHEETS