Contamos de diferentes formas

Cuenta de 5 en 5 para saber cuántas tortugas hay.



- Hay _____ tortugas.

Cuenta de 10 en 10 para saber cuántos conejos hay.

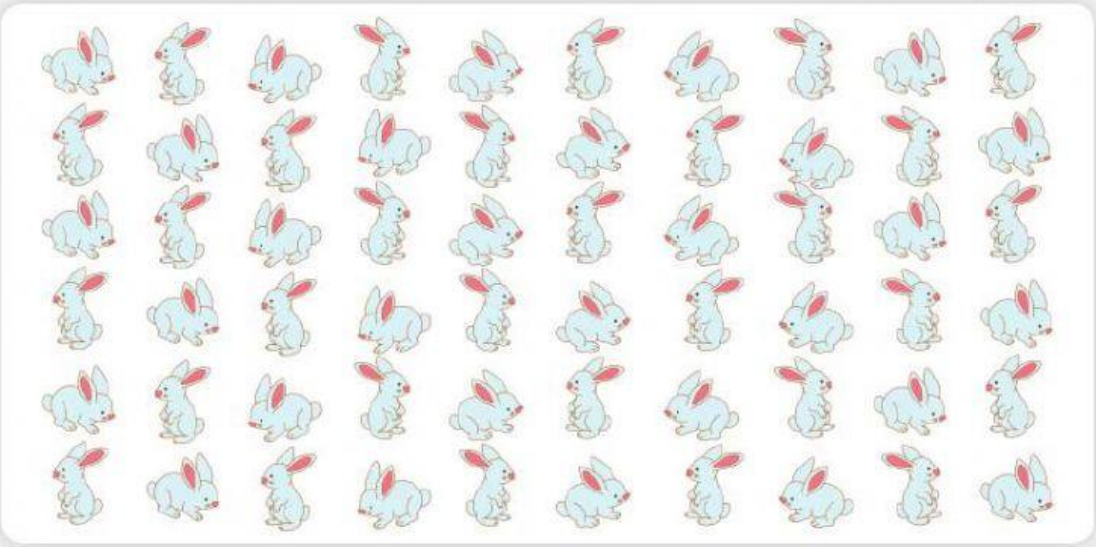

- Hay _____ conejos.

LIVEWORKSHEETS

Ignacio realiza algunas compras para su tienda. ¿Cuántas botellas de agua y paquetes de mantequilla compró?

- Cada caja tiene 5 paquetes de mantequilla.

– En total hay _____ paquetes de mantequilla.

- Cada paquete tiene 6 botellas.

– En total hay _____ botellas.

Nico junta bolsas con canicas. **Une** las bolsas que te permiten contar más rápido por decenas y **calcula** el total.

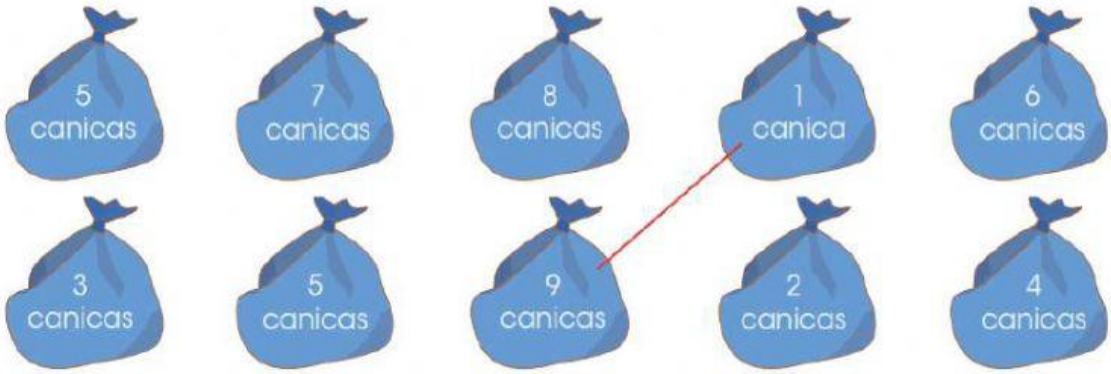

- En total hay _____ canicas.

LIVEWORKSHEETS