PEMERINTAH PROVINSI DAERAH KHUSUS IBUKOTA JAKARTA
DINAS PENDIDIKAN
SLB NEGERI 5 JAKARTA
Jl. KS Tubun III Dalam No. 37 Rt.002/002 Kel. Slipi Kec. Palmerah Telp. / Fax (021) 5349282
Kota Administrasi Jakarta Barat
email: slbn5jakarta@gmail.com http://www.slbn5jakarta.sch.id kode Pos : 11410

penilaian akhir tahun (pat)
sdlb tunarungu
tahun pelajaran 2020/2021

mata pelajaran : matematika **nama : .....**
hari, tanggal : rabu, 16 juni 2021 **kelas : 3b**
waktu : 120 menit **nilai : .....**

berilah tanda silang (x) pada huruf a, b atau c yang merupakan jawaban benar dilembar jawab !

1. 2 + 2 + 2 + 2 + 2 = ...
   a. 2 x 5 = 10
   b. 2 x 4 = 8
   c. 5 x 2 = 10

2. 4 x 5 = 20

   apabila ditulis dalam operasi penjumlahan adalah....

   a. 4 + 5
   b. 5 + 5 + 5 + 5
   c. 4 + 4 + 4 + 4 + 4

3. perhatikan gambar berikut

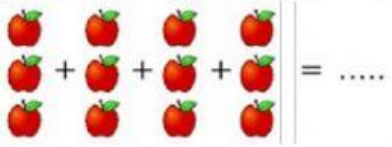

   = ...

   operasi perkalian yang tepat adalah ....
   a. 4 x 3 = 12
   b. 3 x 4 = 12
   c. 3 x 5 = 15

4.

   2 x 8 = ...

   a. 8
   b. 14
   c. 16

LIVEWORKSHEETS

5. kelompok uang logam adalah ....

a.

b.

c.

6.

Nilai nominal uang yang ditunjukkan oleh gambar di samping adalah ....

a. dua ratus
b. dua ribu
c. dua ribu rupiah

7. sembilan ribu rupiah jika ditulis dengan angka menjadi ....

a. Rp 900,00
b. Rp 9.000,00
c. Rp 9000

8.

nazwa punya 5 lembar uang dua ribuan. semua uang nazwa nilainya adalah ....

a. enam ribu rupiah
b. delapan ribu rupiah
c. sepuluh ribu rupiah

LIVEWORKSHEETS

perhatikan tabel di bawah ini untuk mengisi soal nomor 9 – 15!

uang chin-chin	uang rizky	uang haikal	uang fathan	uang nabila

9. jumlah uang yang dimiliki chin-chin adalah ....
   a. Rp 4.000,00
   b. Rp 5.000,00
   c. Rp 4.500,00

10. jumlah uang yang dimiliki nabila adalah ....
   a. Rp 8.500,00
   b. Rp 8.000,00
   c. Rp 9.500,00

11. jumlah uang yang dimiliki rizky adalah ....
   a. Rp 6.500,00
   b. Rp 7.000,00
   c. Rp 7.500,00

12. jumlah uang yang dimiliki fathan adalah ....
   a. Rp 1.000,00
   b. Rp 10.000,00
   c. Rp 10000

13. jumlah uang yang dimiliki haikal adalah ....
   a. Rp 2.000,00
   b. Rp 4.000,00
   c. Rp 6.000,00

LIVEWORKSHEETS

14. uang haikal jika ditambah dengan uang fathan maka jumlahnya menjadi ....
   a. Rp 14.000,00
   b. Rp 16.000,00
   c. Rp 18.000,00

15. jumlah uang yang paling banyak dimiliki oleh ....
   a. fathan
   b. nabila
   c. rizky

16. uang chin-chin Rp 5.000,00 jika dibaca menjadi ....
   a. lima ribu
   b. lima ribu rupiah
   c. lima puluh ribu

17. 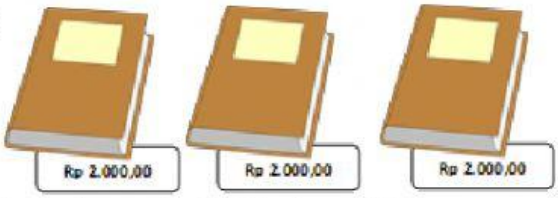

farrel membeli 3 buku tulis.
setiap buku harganya Rp. 2.000,00.
maka farel harus membayar ....
   a. Rp 5.000,00
   b. Rp 6.000,00
   c. Rp 7.000,00

18.

novi mempunyai 3 lembar uang dua ribuan dan 1 lembar lima ribuan.
Jumlah uang novi semuanya adalah ....
   a. sepuluh ribu rupiah
   b. sebelas ribu rupiah
   c. dua belas ribu rupiah

19. gambar yang menunjukkan pukul 18.15 adalah ...

A. 

B. 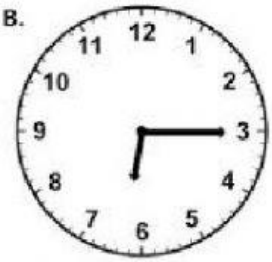

C. 

LIVEWORKSHEETS

20.

gambar di samping menunjukkan pukul....

a. 05.00
b. 12.00
c. 15.00

21. perhatikan gambar berikut

jam wekker menunjukkan pukul ....

a. sepuluh lebih dua menit
b. sepuluh lebih sepuluh menit
c. dua lebih sepuluh menit

22. nazwa bangun pukul ....

a. lima
b. enam
c. dua belas

tabel kegiatan novi digunakan untuk menjawab soal 23-25

nama kegiatan	**jam**
bangun tidur	05.00
sarapan	06.30
membantu ibu	08.00
belajar	09.00
pulang	11.00

23. gambar jam yang menunjukkan novi bangun tidur adalah ....

a.

b.

c.

LIVEWORKSHEETS

24. apa yang dilakukan novi pada pukul 09.00?
    a. belajar
    b. membantu ibu
    c. sarapan pagi

25. gambar jam yang menunjukkan novi pulang adalah ....

a.

b.

c.

LIVEWORKSHEETS