Escola Municipal Herádio Fonseca barroso

Data:___/___/____ Turma: 2º ano

Professora:Cineide Nascimento

Estudante: _____

ATIVIDADE DE MATEMÁTICA

VEJA COMO ESSAS CRIANÇAS INDICAM A IDADE COM OS DEDOS!
LIGUE CADA UMA AO SEU BOLO DE ANIVERSÁRIO.

FONTE: https://br.pinterest.com/

QUANTOS ANOS TEM A MAIS VELHA?

QUANTOS ANOS TEM A MAIS NOVA?

E VOCÊ, QUANTOS ANOS TEM?

A FAMÍLIA DE CAROL É BEM GRANDE. ELA TEM CINCO IRMÃOS. VEJA AS IDADES DOS IRMÃOS DE CAROL:

CAROL	BETO	FABI	TIAGO	NINA	LUCA
8 ANOS	**10 ANOS**	**7 ANOS**	**9 ANOS**	**6 ANOS**	**5 ANOS**

VAMOS MONTAR UM GRÁFICO?! PINTE UM ☐ PARA CADA ANO CORRESPONDENTE À IDADE DAS CRIANÇAS.

QUAL A CRIANÇA **MAIS NOVA** DO GRUPO? _____

E QUAL A **MAIS VELHA**? _____

LIVEWORKSHEETS

NA HORA DE ESCREVER A SEQUÊNCIA LILA PERCEBEU QUE ALGUNS NÚMEROS SUMIRAM. AJUDE LILA E ESCREVA OS NUMERAIS DE ACORDO COM A LEGENDA.

	2	3	4	
6		8		10
11		13		15
16		18		20

ANTES DA PANDEMIA LILA, JUCA E PEDRO AMAVAM JOGAR. ELES USAM UM DADO PARA DEFINIR CADA JOGADA.

➔ VEJA AS FACES DO DADO E FAÇA O QUE SE PEDE.

- RISQUE O DADO **COM MAIOR** QUANTIDADE.

- CIRCULE O DADO **COM MENOR** QUANTIDADE.

OBSERVE OS PONTOS DA ÚLTIMA PARTIDA DE CADA JOGADOR E ESCREVA O TOTAL DE PONTOS.



LIVEWORKSHEETS



OBSERVE A IMAGEM ACIMA E RESPONDA:

QUANTOS PINTINHOS ESTÃO PERTO DA GALINHA? ⬡

QUANTOS PINTINHOS ESTÃO LONGE DELA? ⬡

QUAL É O TOTAL DE PINTINHOS NA IMAGEM? ⬡ + ⬡ = ⬡



VIZINHO É QUEM MORA AO LADO!

ENTÃO ESCREVA OS VIZINHOS DOS NÚMEROS ABAIXO:

CONTINHA SECRETA: SUBSTITUA OS DESENHOS DE ACORDO A LEGENDA E RESOLVA AS CONTINHAS.

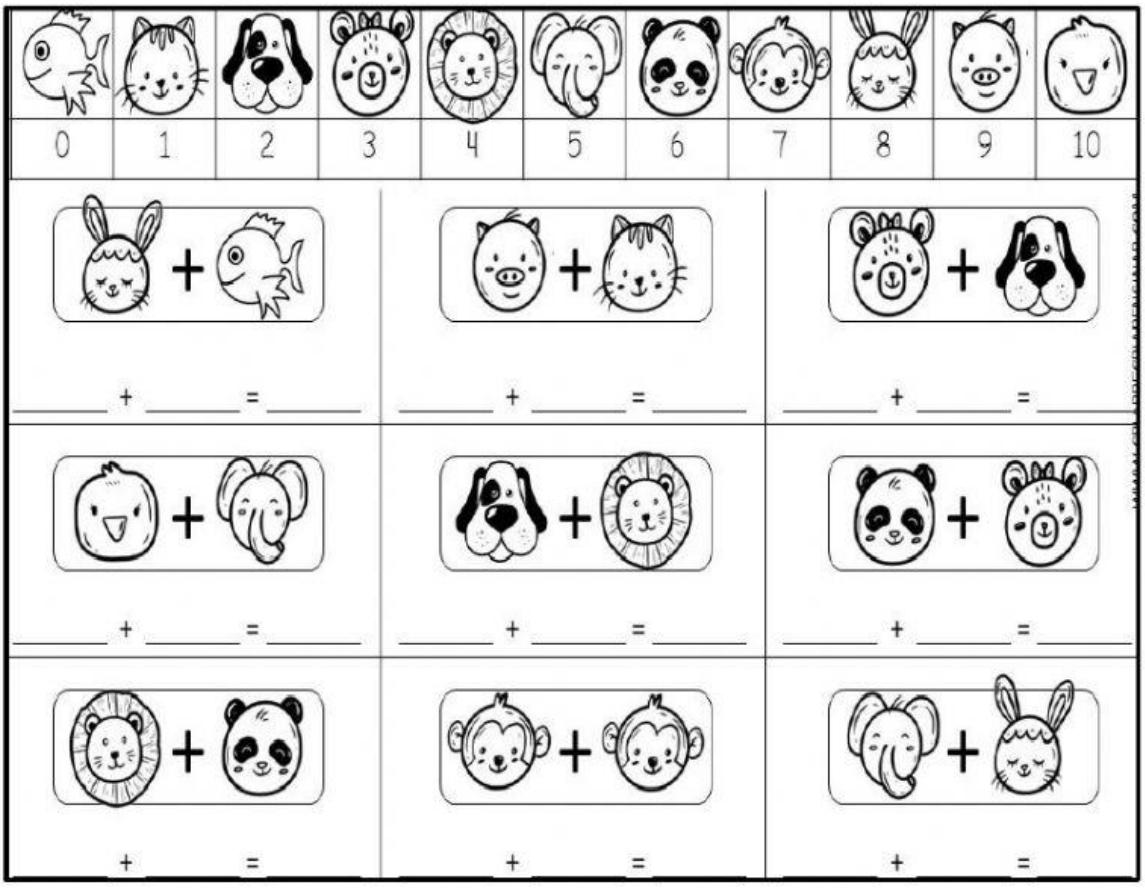

LIVEWORKSHEETS