Умножение и деление с числото 8 (УТ)

1 зад. Попълни таблиците:

Чифт ролери	1	2	3	4	5	6	7	8	9	10
Колела										

. 8

Мъниста	8	16	24	32	40	48	56	64	72	80
Гривни										

: 8

2 зад. Попълни:

2 . 8 = ☐ **4 . 8 =** ☐ **5 . 8 =** ☐ **6 . 8 =** ☐

3 . 8 = ☐ **3 . 8 =** ☐ **3 . 8 =** ☐ **4 . 8 =** ☐

5 . 8 = ☐ **7 . 8 =** ☐ **8 . 8 =** ☐ **10 . 8 =** ☐

LIVEWORKSHEETS

3 зад. Отбележи толкова квадратчета по редове и по колони, колкото е отбелязано и реши задачите.

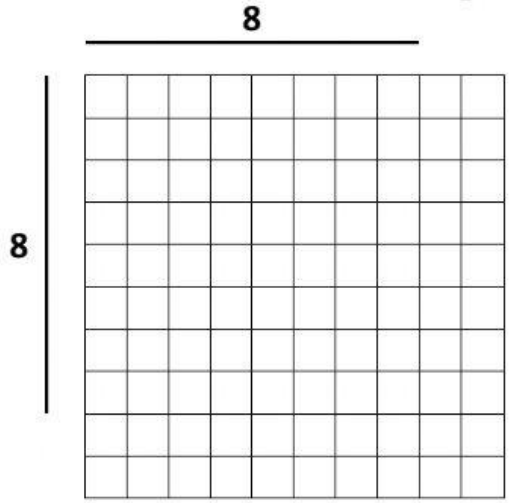

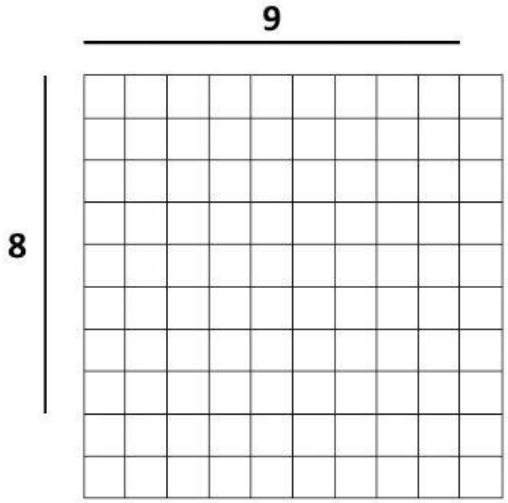

8 . 8 = ☐ **9 . 8 =** ☐

4 зад. Попълни:

4 . 8 = ☐ → ☐ **: 8 =** ☐ ; ☐ **: 4 =** ☐

6 . 8 = ☐ → ☐ **: 8 =** ☐ ; ☐ **: 6 =** ☐

LIVEWORKSHEETS

5 зад. Отбележи агнетата, върху които са записани произведенията от таблицата за умножение с 8.



6 зад. В един пчелин има 10 кошера, а в друг – 8 пъти повече. Колко кошера общо има в двата пчелина?

Решение:

LIVEWORKSHEETS

7 зад. Запиши три числа, първото от които е 64, а всяко следващо е 8 пъти по-малко от предходното.

8 зад. Обиколката на квадрат е равна на обиколката на равностранен триъгълник със страна 8 см. Колко сантиметра е страната на квадрата?

Решение:

9 зад. Емил има 2 локомотива и 3 вагона. По колко различни начина Емил може да комбинира вагон и локомотив?



Отговор: **начина**

LIVEWORKSHEETS