PENILAIAN AKHIR SEMESTER GENAP T.P 2020/2021

SMP NEGERI 52 MAKASSAR

NAMA	
KELAS	

ARITMATIKA SOSIAL

Pilihan Ganda

1. Harga sebuah sepatu Rp 200.000. Sepatu tersebut diskon sebesar 15%. Berapakah harga sepatu tersebut setelah diskon?

a. Rp 150.000
b. Rp 160.000
c. Rp 170.000
d. Rp 180.000

Menjodohkan

2

Pengeluaran	Pemasukan
Rp 1.220.000,-	Rp 1.020.000
Rp 2.225.000,-	Rp 2.225.000,-
Rp 2.075.000,-	Rp2.750.000,-

UNTUNG

RUGI

IMPAS

Uraian

3 Ibu membeli 1 karung beras di pasar seberat 50 kg dengan tara 3%. Tentukan berat bersih (neto) beras yang dibeli Ibu!

Jawaban

LIVEWORKSHEETS

GARIS DAN SUDUT

Pilihan Ganda

4. Berikut ini yang *bukan* termasuk jenis-jenis sudut adalah …

a. Sudut Refleks
b. Sudut Siku-siku
c. Sudut Lurus
d. Sudut Tegak

Menjodohkan

5

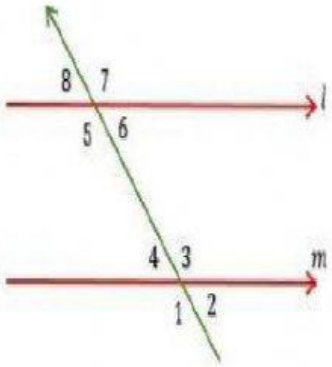

∠1 dan ∠3	Sudut Sehadap
∠4 dan ∠6	Sudut Luar Sepihak
∠3 dan ∠7	Sudut Dalam berseberangan
∠1 dan ∠8	Sudut Bertolak belakang

Isian

6

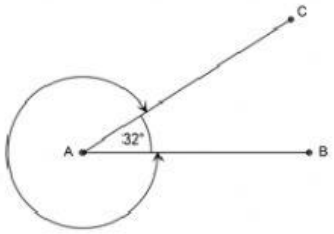

Besar sudut Refleks gambar disamping adalah

Uraian

7

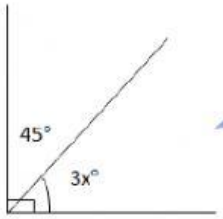

Dari gambar di samping, tentukan nilai x !

LIVEWORKSHEETS

SEGITIGA DAN SEGIEMPAT

Pilihan Ganda

8

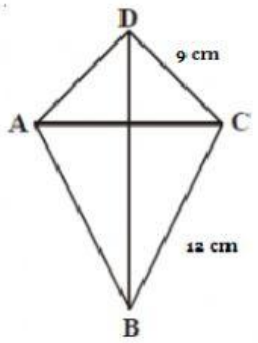

Keliling gambar disamping adalah . . . .

a. 108 cm^2

b. 54 cm^2

c. 42 cm

d. 21 cm

Pilihan Ganda Kompleks

9

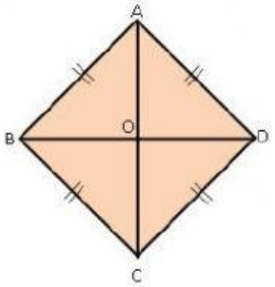

Diagonal bangun tersebut adalah . . . .

a. Garis AO

b. Garis AC

c. Garis BD

d. Garis BO

Menjodohkan

10

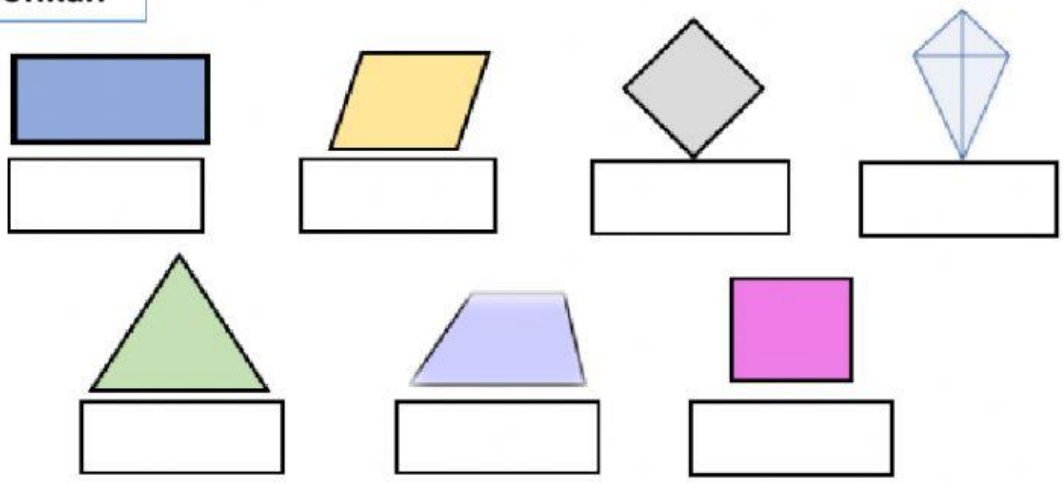

$\frac{1}{2} . d_1 . d_2$

$S \times S$

$\frac{1}{2} . (a_1 + a_2) . t$

$p \times l$

$\frac{1}{2} . a . t$

$a \times t$

$\frac{1}{2} . d_1 . d_2$

LIVEWORKSHEETS

Isian

11

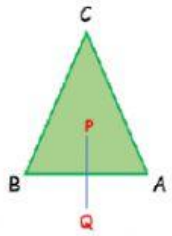

Garis PQ pada segitiga disamping adalah _____

PENYAJIAN DATA

Pilihan Ganda

12 Berikut merupakan cara penyajian data, *kecuali* …

a. Diagram Batang
b. Diagram Lingkaran
c. Piktogram
d. Garis Lurus

Pilihan Ganda Kompleks

13

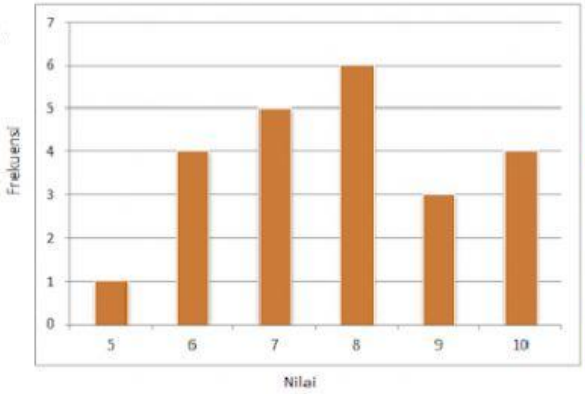

Pernyataan yang benar sesuai diagram disamping adalah . . .

a. **Jumlah siswa yang mendapat nilai 7 lebih banyak dari nilai 8**
b. **Jumlah siswa yang mendapat nilai 9 lebih sedikit dari nilai 8**
c. **Jumlah siswa yang mendapat nilai 6 sama banyak nilai 10**
d. **Jumlah siswa yang mendapat nilai 8 lebih banyak yaitu 6**

Isian

14

Nilai	5	6	7	8	9	10
Frekuensi	4	5	7	13	6	5

Banyaknya siswa yang mendapat nilai kurang dari 8 adalah _____

LIVEWORKSHEETS

Uraian

15

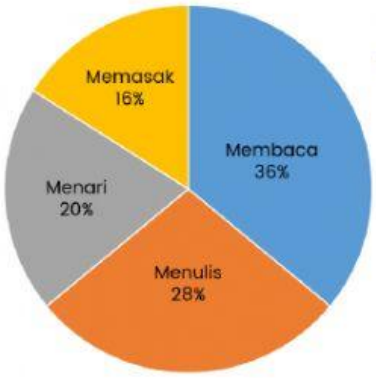

Jika jumlah siswa 150 orang, maka banyaknya siswa yang hobi membaca adalah . . . .

--------- *SELAMAT BEKERJA* ---------

LIVEWORKSHEETS