وزارة التربية والتعليم
مجلس 1 نطاق 3
مدرسة البريرات للتعليم الأساسي ح2

الصف السادس
المادة : الرياضيات
موضوع الدرس: مراجعة الوحدة العاشرة الحجم ومساحة السطح

الاسم: الشعبة:

اختر الإجابة الصحيحة ؟

20-أوجد حجم المنشور المقابل ؟

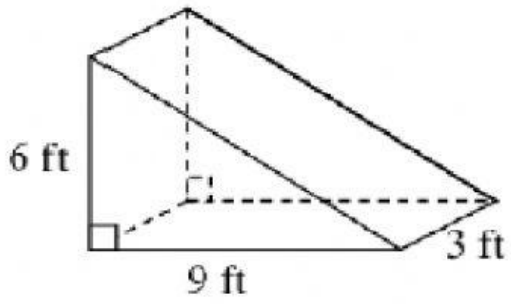

a) $162ft^3$ b) $54ft^3$

c) $27ft^3$ d) $81ft^3$

21- أوجد مساحة سطح المنشور مستطيل القاعدة ؟

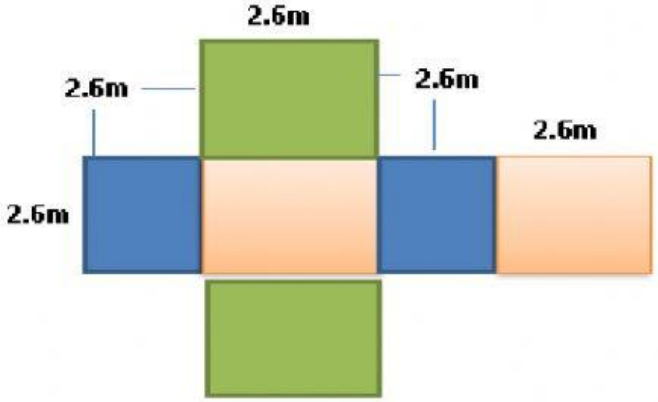

a) $40.56m^2$ b) $40.12m^2$

c) $40.65m^2$ d) $40.15m^2$

22-أوجد مساحة سطح المنشور مستطيل القاعدة ؟

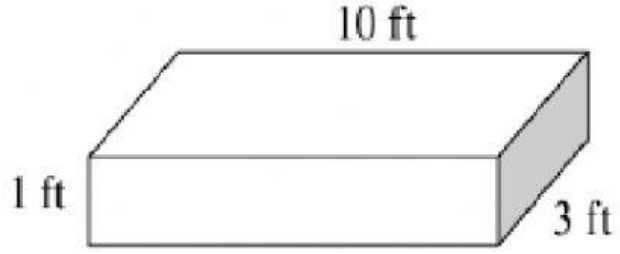

a) $43ft^2$ b) $86ft^2$

c) $30ft^2$ d) $10ft^2$

LIVEWORKSHEETS