Aula especializada de informática –3º Ano - 24 a 28 de maio de 2021

Aluno(a): _____

Professora: _____

1 -) VAMOS AJUDAR JOÃO A CHEGAR EM SUA CASA COMPLETANDO A SEQUÊNCIA NUMÉRICA:

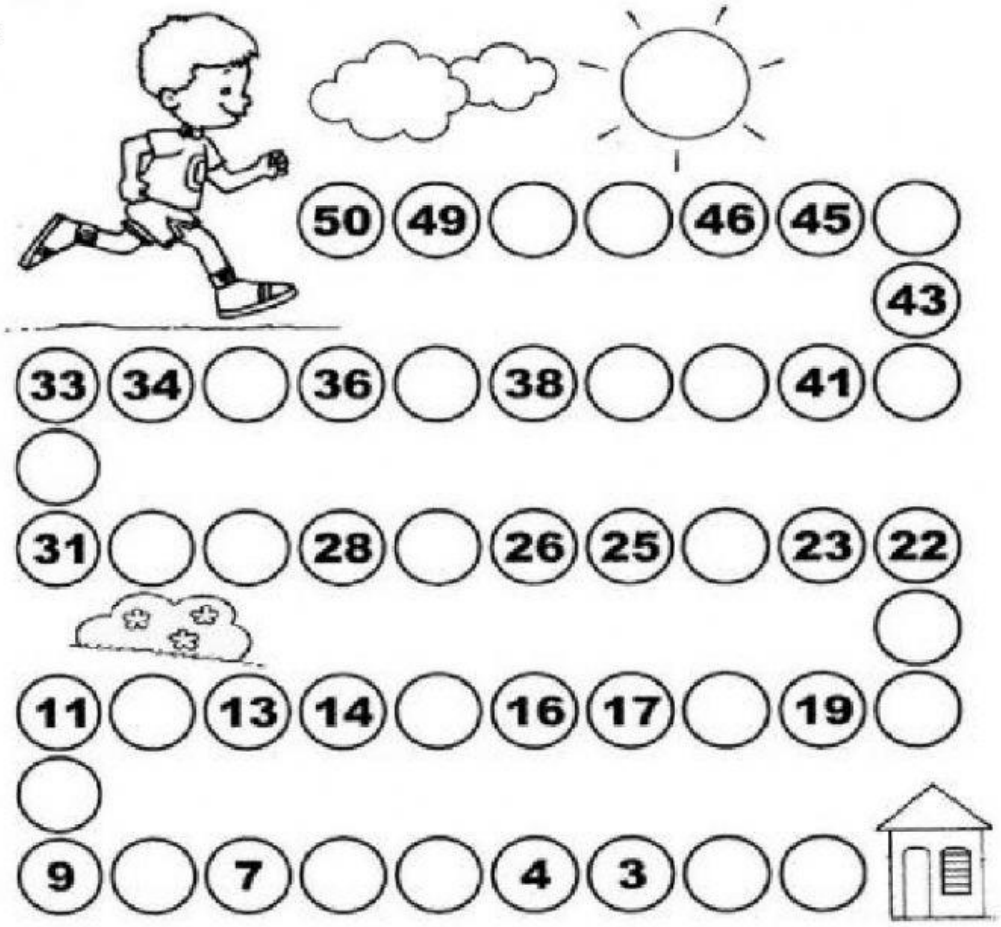

2 -) OBSERVE AS CASAS DA RUA DE MANUELA E RESPONDA

A) QUAL O NÚMERO DA CASA QUE TEM ANTENA? ____

B) QUAL O NÚMERO DA CASA QUE TEM CORTINA EM TODAS AS JANELAS? ____

C) QUAL O NÚMERO DA CASA QUE FICA ENTRE AS CASAS 23 E 6? ____

LIVEWORKSHEETS

3 -) COLOQUE O ANTECESSOR E O SUCESSOR DE CADA VIZINHO.

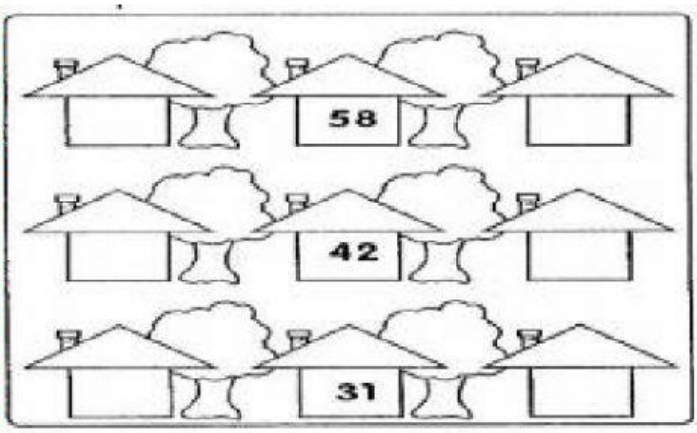

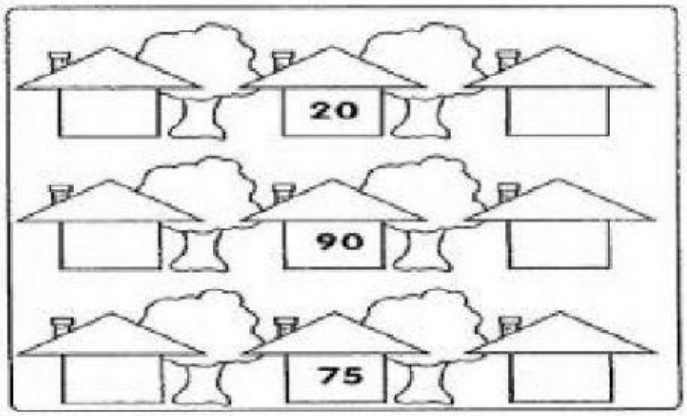

RESPONDA:

A- QUE NÚMERO ESTÁ ENTRE 20 E 22?

B- QUAL O ANTECESSOR DO 60?

C- QUAL O SUCESSOR DE 79?

4 -) REGISTRE O ANTECESSOR E O SUCESSOR DE CADA NÚMERO ABAIXO.

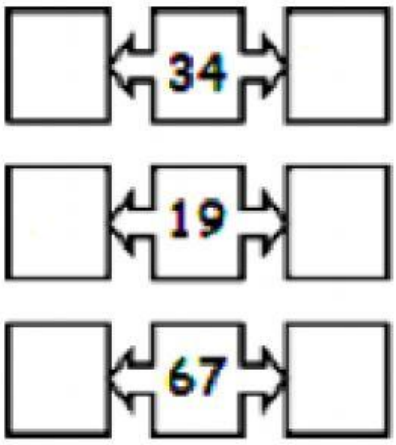

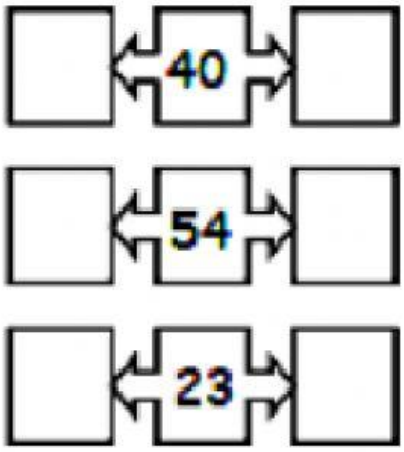

5 -) COLOQUE OS NUMERAIS EM ORDEM CRESCENTE.

79	54	22	100	48	3	10	31

6 -) COLOQUE OS NUMERAIS EM ORDEM DECRESCENTE.

0	34	76	99	41	12	25	87

LIVEWORKSHEETS