S-38 I variantas Erdviniai kūnai tarp mūsų. Stačiakampis gretasienis

1. Kuriuo atveju — A ar B apskritimas uždėtas ant trikampio?

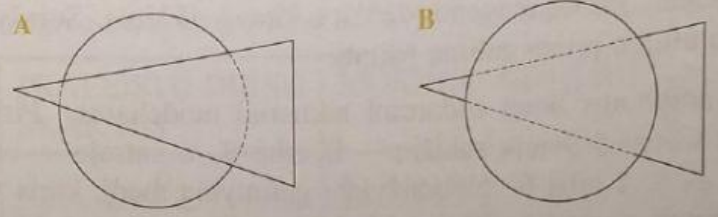

2. Užrašykite stačiakampio gretasienio $MNKLPOSR$:
   a) matomąsias briaunas;
   b) nematomąsias briaunas;
   c) briaunas, išeinančias iš viršūnės N.

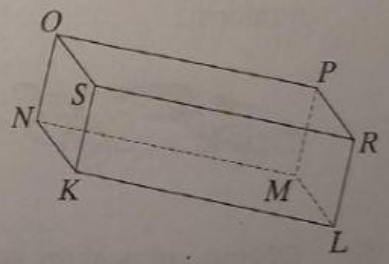

3. Užrašykite stačiakampio gretasienio $ABCDEFGH$:
   a) matomąsias sienas;
   b) nematomąsias sienas;
   c) sienas, turinčias briauną AB.

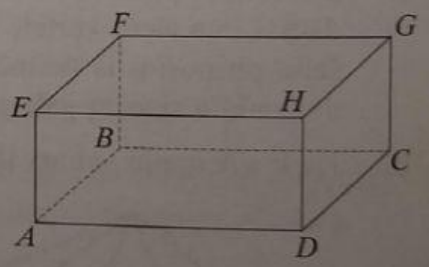

4. Užrašykite pavaizduoto stačiakampio gretasienio:
   a) sieną, lygią sienai $KOSN$;
   b) lygių sienų poras;
   c) sienas, einančias per viršūnę M.

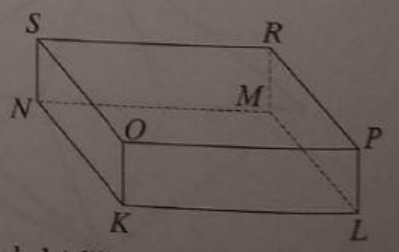

5. Per tris dienas 6 staliai padaro 54 kėdes. Kiek kėdžių padarytų 4 staliai per 7 dienas?



LIVEWORKSHEETS