ACTIVITAT 1. PREPAREM L'ANIVERSARI!

La Carla, l'Alba i l'Arnau són tres amics que estan preparant la festa d'aniversari de la Carla.

1 **Tots tres amics van néixer el mateix any. La Carla va néixer el 25 de setembre, l'Alba el 10 de març i l'Arnau el 17 de juny. Al calendari hem encerclat els dies del naixement de tots tres.**

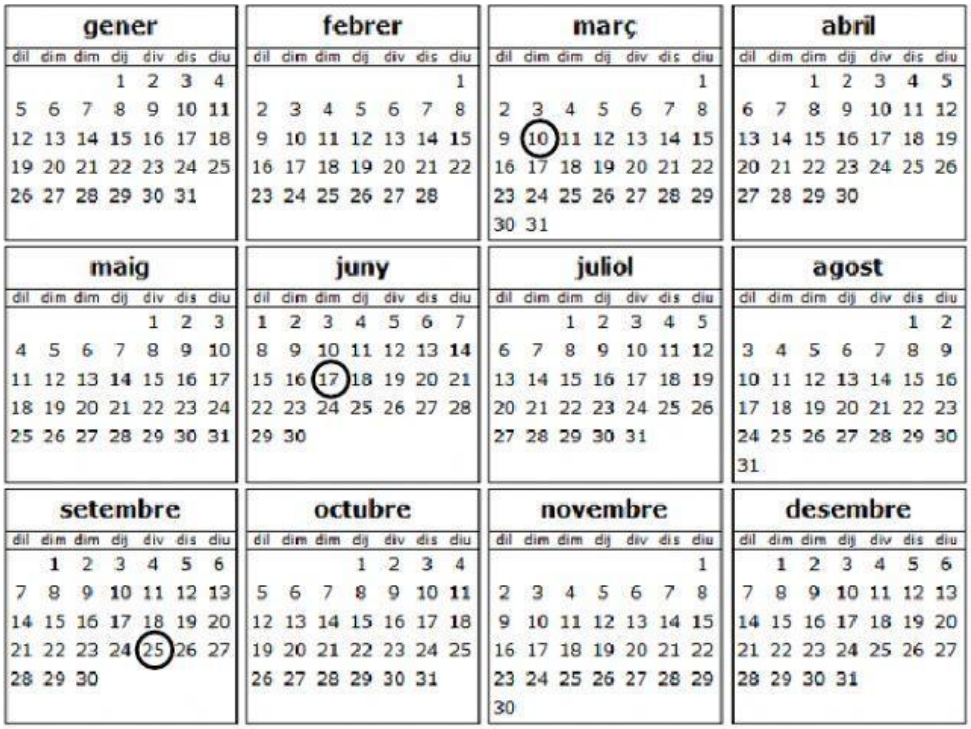

gener						
dil	dim	dim	dij	div	dis	diu
			1	2	3	4
5	6	7	8	9	10	11
12	13	14	15	16	17	18
19	20	21	22	23	24	25
26	27	28	29	30	31	

febrer						
dil	dim	dim	dij	div	dis	diu
						1
2	3	4	5	6	7	8
9	10	11	12	13	14	15
16	17	18	19	20	21	22
23	24	25	26	27	28	

març						
dil	dim	dim	dij	div	dis	diu
						1
2	3	4	5	6	7	8
9	10	11	12	13	14	15
16	17	18	19	20	21	22
23	24	25	26	27	28	29
30	31					

abril						
dil	dim	dim	dij	div	dis	diu
		1	2	3	4	5
6	7	8	9	10	11	12
13	14	15	16	17	18	19
20	21	22	23	24	25	26
27	28	29	30			

maig						
dil	dim	dim	dij	div	dis	diu
				1	2	3
4	5	6	7	8	9	10
11	12	13	14	15	16	17
18	19	20	21	22	23	24
25	26	27	28	29	30	31

juny						
dil	dim	dim	dij	div	dis	diu
1	2	3	4	5	6	7
8	9	10	11	12	13	14
15	16	17	18	19	20	21
22	23	24	25	26	27	28
29	30					

juliol						
dil	dim	dim	dij	div	dis	diu
		1	2	3	4	5
6	7	8	9	10	11	12
13	14	15	16	17	18	19
20	21	22	23	24	25	26
27	28	29	30	31		

agost						
dil	dim	dim	dij	div	dis	diu
					1	2
3	4	5	6	7	8	9
10	11	12	13	14	15	16
17	18	19	20	21	22	23
24	25	26	27	28	29	30
31						

setembre						
dil	dim	dim	dij	div	dis	diu
	1	2	3	4	5	6
7	8	9	10	11	12	13
14	15	16	17	18	19	20
21	22	23	24	25	26	27
28	29	30				

octubre						
dil	dim	dim	dij	div	dis	diu
			1	2	3	4
5	6	7	8	9	10	11
12	13	14	15	16	17	18
19	20	21	22	23	24	25
26	27	28	29	30	31	

novembre						
dil	dim	dim	dij	div	dis	diu
						1
2	3	4	5	6	7	8
9	10	11	12	13	14	15
16	17	18	19	20	21	22
23	24	25	26	27	28	29
30						

desembre						
dil	dim	dim	dij	div	dis	diu
	1	2	3	4	5	6
7	8	9	10	11	12	13
14	15	16	17	18	19	20
21	22	23	24	25	26	27
28	29	30	31			

Com ordenaries, per la seva edat, els tres amics, del més gran al més petit?

a. Arnau – Alba – Carla ☐
b. Arnau – Carla – Alba ☐
c. Alba – Arnau – Carla ☐
d. Carla – Arnau – Alba ☐

0-1 ☐

2 **Quan han anat a comprar, s'han trobat un tiquet de compra en què faltaven 3 xifres d'una suma.**
Escriu les xifres que s'han esborrat.

	☐	5	3
+	1	5	☐
	3	☐	6

0-1 ☐

LIVEWORKSHEETS

ACTIVITAT 1. PREPAREM L'ANIVERSARI!

3 **Els pares de la Carla portaran 40 euros en bitllets. Encercla els bitllets necessaris per tenir aquesta quantitat:**



0-1

4 **L'Arnau comenta que 6 multiplicat per 5 és igual que 9 multiplicat per 4. És verdader o fals?**

Marca amb una X si les igualtats següents són verdaderes (V) o falses (F):

IGUALTAT	V	F
6 x 5 = 9 x 4		
310 + 5 = 318 – 2		
5 + 5 + 5 = 3 x 5		
Mig litre + un litre = un litre i mig		

0-1-2

LIVEWORKSHEETS

ACTIVITAT 2. ANEM AL SUPERMERCAT!

Els tres amics, acompanyats dels pares de la Carla, van a comprar al supermercat per preparar la festa.

Aquesta graella representa el plànol del supermercat. El pa és a la casella B4.

	1	2	3	4
A				
B				pa
C		carn		
D	peix			
E		fruita		verdura

1 Quina de les caselles següents està més a prop de la verdura?

a. Casella C3 ☐
b. Casella D2 ☐
c. Casella D4 ☐
d. Casella E1 ☐

0-1 ☐

2 Si estàs a la casella de la carn i et desplaces una casella a la dreta, de quin producte estaràs més a prop?

a. Verdura ☐
b. Fruita ☐
c. Pa ☐
d. Peix ☐

0-1 ☐

3 Si ets a la casella B3 i et desplaces una casella a la teva dreta i una casella cap amunt. A quina casella arribes?

0-1

Resposta: ..... ☐

LIVEWORKSHEETS

ACTIVITAT 2. ANEM AL SUPERMERCAT!

4 **En aquesta bossa del supermercat hi ha un dibuix fet amb figures geomètriques. Observa la fletxa que marca una figura geomètrica.**

La figura que assenyala la fletxa és un...

a. rombe ☐
b. triangle ☐
c. quadrat ☐
d. rectangle ☐

0-1 ☐

5 **En quina de les lletres següents la línia de punts és un eix de simetria?**



a. ☐ **b.** ☐ **c.** ☐ **d.** ☐

0-1 ☐

6 **Marca amb una X la unitat de mesura més adequada per a cada cas:**

	km	m	cm
L'amplada de la bossa del supermercat.			
La llargada d'un llapis.			
La distància entre 2 pobles.			
La llargada d'un passadís d'un supermercat.			

0-1-2 ☐

LIVEWORKSHEETS

ACTIVITAT 2. ANEM AL SUPERMERCAT!

7 **L'Arnau va comprar 2 tires de banderoles i les va mesurar. Una tira mesura 275 cm i l'altra tira mesura 245 cm.**

Quina serà la llargada de les 2 tires de banderoles juntes?

0-1

Resposta: ..... cm ☐

8 **L'Alba va agafar 24 sucs d'un prestatge on n'hi havia 131. Quants sucs van quedar al prestatge?**

0-1

Resposta: ..... sucs ☐

9 **L'Arnau va comprar 3 fuets de 250 grams cada un. Si un fuet val 2 euros, quina de les operacions següents serveix per saber el preu dels 3 fuets?**

a. 3 x 3 ☐
b. 2 x 3 ☐
c. 2 x 250 ☐
d. 3 x 250 ☐

0-1 ☐

10 **Tenim una caixa de prunes per repartir entre els 3 amics. Si cada un dels amics ha rebut el mateix nombre de prunes, i no n'ha sobrat cap, quantes prunes tenia la caixa?**

a. 10 prunes ☐
b. 11 prunes ☐
c. 12 prunes ☐
d. 13 prunes ☐

0-1 ☐

LIVEWORKSHEETS

ACTIVITAT 2. ANEM AL SUPERMERCAT!

11 **Al supermercat, la Carla va comprar 4 litres d'aigua en ampolles de 2 litres, a un preu de 60 cèntims cada ampolla.**

PREU DE L'AMPOLLA: 60 CÈNTIMS

CADA LITRE VAL 30 CÈNTIMS

Quant va pagar pels 4 litres d'aigua?

a. 30 cèntims ☐
b. 60 cèntims ☐
c. 90 cèntims ☐
d. 120 cèntims ☐

Explica com ho has calculat:

.....

.....

.....

0-1-2 ☐

12 **Observa aquesta figura. Marca amb una X si les expressions següents són verdaderes (V) o falses (F):**

	V	F
Té quatre costats.		
Té quatre vèrtexs.		
Tots els seus costats són iguals.		
Tots els seus angles són rectes.		

0-1-2 ☐

LIVEWORKSHEETS