Unidad Educativa Ángel Polivio Chávez

Combinaciones simples quinto EGB



1.Completar:

¿Cuántas figuras son de color verde?

¿Cuántos triángulos hay de diferente color?

¿Cuántos trapecios son de color morado?

2 RESUELVE

LIVEWORKSHEETS

a. Observa los siguientes conjuntos y contesta: ¿Cuáles son las posibles combinaciones que se pueden formar entre el conjunto F y el conjunto B? Complete la siguiente tabla.

F \ B			

Las combinaciones simples son todas las agrupaciones posibles de elementos distintos, sin importar su orden.

R. Hay ____ posibles combinaciones.

3 Ubica las figuras con sus colores de acuerdo a las combinaciones

LIVEWORKSHEETS

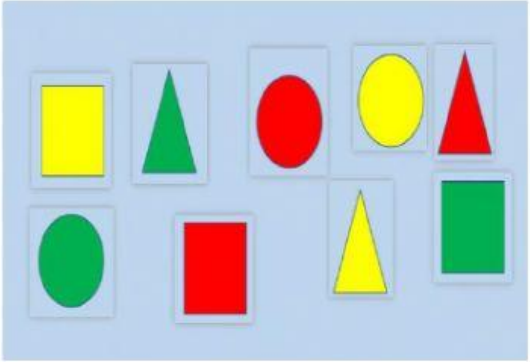

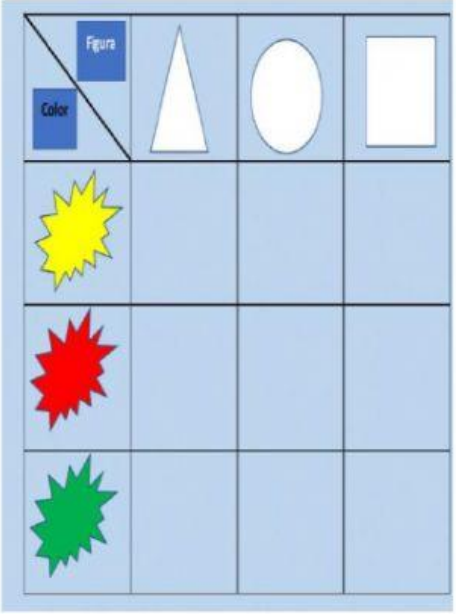

LIVEWORKSHEETS