PENILAIAN HARIAN

TEMA 8 SUBTEMA 1

KELAS 3

1. Berikut ini warna pokok pada lambang negara Indonesia, kecuali . . . . . .

a. ungu

b. merah

c. putih

d. emas

2. Pernyataan yang tidak benar mengenai lambang negara Indonesia yaitu . . . . .

a. perisai dilengkapi lambang sila Pancasila

b. kepala burung garuda menoleh ke kanan

c. pada leher burung garuda terdapat perisai

d. perisai pada burung garuda berbentuk lingkaran

3. Pemasangan lambang negara Garuda Pancasila dapat kita temui di . . . . .

a. pasar

b. sekolah

c. tempat wisata

d. jalan raya

4. Bagian tubuh pada lambang Garuda Pancasila yang sedikit bulunya menunjukkan bulan kemerdekaan Indonesia adalah . . . . .

a. sayap

b. bulu ujung ekor

c. leher

d. bulu sayap

5. Padi dan kapas merupakan simbol sila ke ..... Pancasila.

a. 2

b. 3

c. 4

d. 5

LIVEWORKSHEETS

6. Pita yang dicengkeram Garuda Pancasila bertuliskan . . . . .

a. Bhineka Tunggal Ika

b. Garuda pancasila

c. Tut Wuri Handayani

d. Indonesia Raya

7. Yang merancang Burung Garuda adalalah . . . . .

a. Suharto

b. Sutomo

c. Sultan Hamid

d. Sudirman

8. Burung Garuda Menggambarkan . . . . .

a. kedamaian dan kesejahteraan

b. kebesaran dan kekuatan

c. keamanan dan kekuatan

d. kebesaran dan kenyamanan

9. Kepanjangan dari Pramuka adalah . . . .

a. Praja Muda Kamu

b. Praja Karena

c. Praja Muda Karana

d. Prakarya Muda Karana

10. Pencipta lagu "pantun pramuka" adalah . . . .

a. A.T Mahmud

b. Pak Kasur

c. Ibu Sud

d. Ibu Kasur

11. Anggota Pramuka siaga untuk anak berumur . . . .

a. 5-7 tahun

b. 6-10 tahun

c. 7-10 tahun

d. 7-11 tahun

12. Lambang Gerakan Pramuka adalah . . ..

a.

LIVEWORKSHEETS

b.

c.

d.

13. Udin berusia 9 tahun saat duduk di kelas 3, maka ketika masuk pramuka ia menjadi pramuka . . . . .

a. pandega

b. penegak

c. penggalang

d. siaga

14. Santi di ajari tepuk pramuka di sekolahnya, tepuk pramuka tersebut berpola . . . .

a. Tepuk 3 kali – tepuk 4 kali – tepuk 5 kali

b. Tepuk 3 kali – tepuk 3 kali – tepuk 3 kali

c. Tepuk 7 kali – tepuk 6 kali – tepuk 5 kali

d. Tepuk 3 kali – tepuk 3 kali – tepuk 7 kali

15. Dalam kegiatan pramuka, para siswa di ajarkan untuk bersikap . . . .

a. mandiri

b. acuh

c. manja

d. pemarah

16. Anggota pramuka dilatih untuk selalu . . . .

a. hormat kepada tiang bendera

b. membawa bendera Indonesia

c. mencintai negara Indonesia

d. menjadi tentara Indonesia

LIVEWORKSHEETS

17. Sudut dibentuk oleh . . . .

a. 2 garis yang sejajar

b. 2 garis yang saling bertolak

c. 2 garis yang sama panjang

d. 2 garis yang titik pangkalnya bertemu

18. Benda-benda berikut yang memiliki sudut adalah . . . . .

a.

b.

c.

d.

19. Segitiga mempunyai . . . . . sudut.

a. 1

b. 2

c. 3

d. 4

LIVEWORKSHEETS

20. Sudut yang besarnya kurang dari 90 derajat adalah . . . .

a. tumpul

b. lurus

c. siku-siku

d. lancip

21. Gambar ini adalah sudut . . . . .

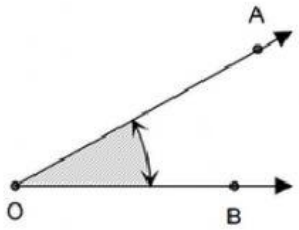

a. lurus

b. lancip

c. siku-siku

d. tumpul

22. Nama sudut pada gambar berikut adalah sudut . . . .

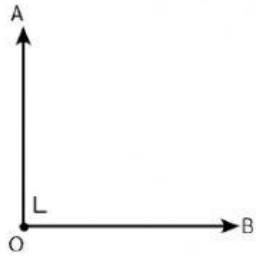

a. lurus

b. lancip

c. siku-siku

d. tumpul

23. Sudut seperti gambar menunjukkan sudut . . . . .

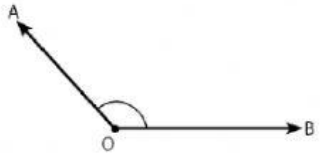

a. lurus

b. lancip

c. siku-siku

d. tumpul

LIVEWORKSHEETS

24. Pola irama yang memiliki ketukan sama dan berulang disebut . . . . .

a. pola irama sama

b. pola irama beda

c. pola irama rata

d. pola irama bervariasi

25. Yang bukan merupakan salah satu alat musik pukul adalah . . . . .

a. seruling

b. kendang

c. drum

d. kolintang

26. Lagu "Siapa Dapat Berbaris" diciptakan oleh . . . .

a. Ibu Sud

b. Ibu Kasur

c. Pak Kasur

d. A.T Mahmud

27. Sekelompok bunyi dengan susunan tertentu disebut dengan . . . .

a. pola nada

b. pola irama

c. tangga nada

d. notasi angka

LIVEWORKSHEETS

28. Pola irama dalam lagu juga dapat dihitung menggunakan . . . . .

a. ketukan

b. birama

c. interval

d. melodi

29. " patriot proklamasi sedia berkorban untukmu". Syair lagu di atas adalah potongan syair dari lagu berjudul . . . . .

a. Syukur

b. Bagimu Negeri

c. Indonesia Raya

d. Garuda Pancasila

30. Arti potongan syair " patriot proklamasi sedia berkorban untukmu" adalah . . . . .

a. sebagai warga negara kan selalu mendukung Pancasila

b. Bangsa Indonesia harus terus maju

c. warga negara Indonesia berjiwa patriot

d.Bangsa Indonesia harus pantang mundur

LIVEWORKSHEETS