LA SARDEGNA

LA SARDEGNA
FLIPPED PROF

LA SARDEGNA E' LA PRIMA / TERZA REGIONE PIU' GRANDE D'ITALIA

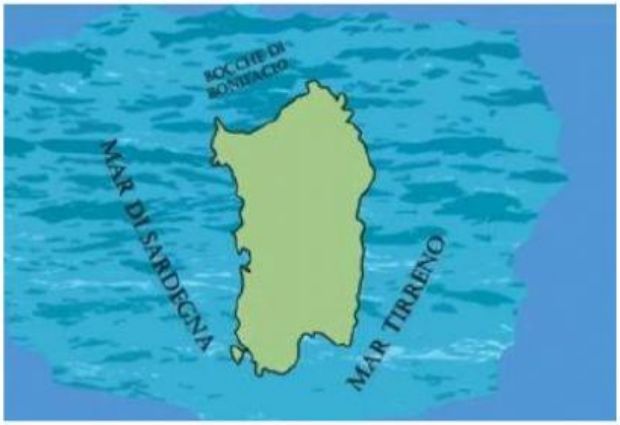

CONFINI:
NORD: _____
EST: _____
SUD: _____
OVEST:_____

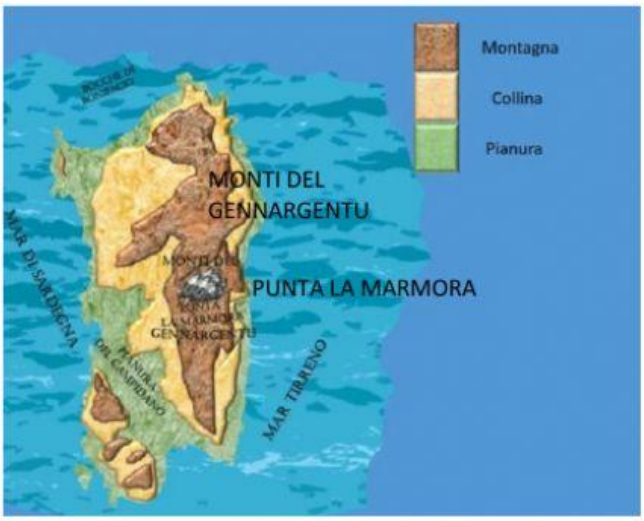

Osservando la cartina, prevalgono le zone:
☐ Montuose ☐ collinari ☐ pianeggianti

Principali zone montuose:
Monti del G_____
La cima più elevata è PUNTA LA _____

La pianura più estesa è la PIANURA DEL
_____

LIVEWORKSHEETS

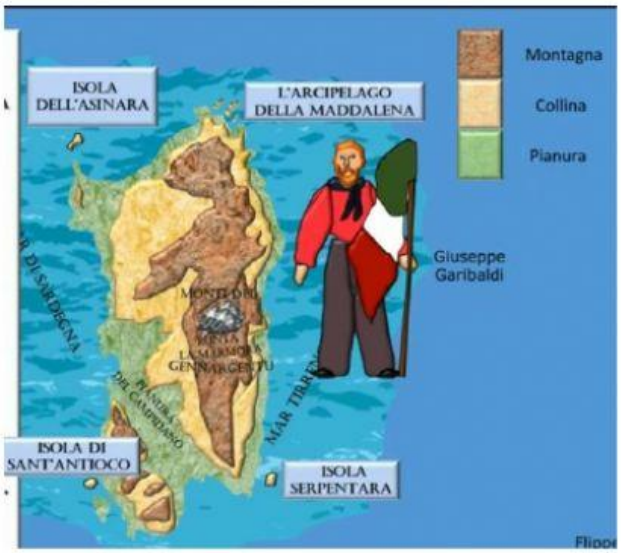

La Sardegna comprende altre piccole isole:
L'arcipelago della _____
L'isola dell' _____
L'isola di _____
L'isola _____

Nell'isola di Caprera visse il patriota italiano Giuseppe Garibaldi

Il capoluogo è _____

La Sardegna è la terra di una antichissima civiltà: la civiltà _____ che prende il nome dalle tipiche torri a forma di tronco di cono dette **NURAGHI**, costruite con grandi pietre sovrapposte

LIVEWORKSHEETS

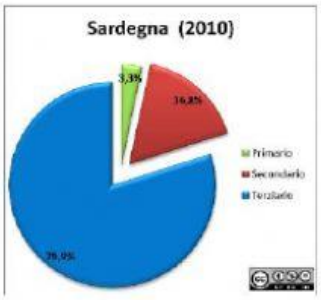

Osservando l'immagine, quale settore economico prevale in Sardegna?
SETTORE _____

PASTORIZIA	ARCHEOLOGICO	SUGHERO

SETTORE PRIMARIO : _____ (ovini e caprini)
pesca
agricoltura
sughero

SETTORE SECONDARIO : produzione di oggetti in _____
industria petrolchimica
industrie alimentari

SETTORE TERZIARIO: turismo balneare e _____

MOLTO BASSA	ARTIGIANATO	CAPRINO	QUERCIA DA SUGHERO
GRANDE	BALNEARE	CAGLIARI	COLLINARE	CHIMICHE

La Sicilia è la seconda isola più _____ del Mediterraneo. Gran parte del territorio è _____. Il capoluogo è _____.
La densità di popolazione è _____ nelle zone interne.
Si coltivano olivo, vite, ortaggi e grano e cresce la _____.
Si praticano l'allevamento ovino e _____.
Ci sono attività estrattive e industrie _____ e alimentari. E' diffuso l'_____ (sughero, corallo, tappeti)
Il turismo _____è la risorsa principale.

LIVEWORKSHEETS

PIATTI TIPICI SARDI
DISSAPORE

LIVEWORKSHEETS