Manahej	**Département de Sciences**	**Évaluation 4: Les besoins d'une plante.**
	Nom:	
	EB 1 (Note:10)	

Exercice 1:

Observe le document 1 puis **réponds** aux questions suivantes.

Document 1: Yara et Marwan plantent une fleur.

A. Choisis la bonne réponse. **(1pt)**

- Que font Yara et Marwan ?

☐ Yara et Marwan **jouent** au ballon.

☐ Yara et Marwan **plantent** une fleur.

☐ Yara et Marwan **mangent**.

LIVEWORKSHEETS

B. Glisse chaque mot au bon endroit. **(3pts)**

La terre	L'eau	L'air	Le soleil



LIVEWORKSHEETS

Exercice 2 :

A. Observe le document 2 puis **choisis** les besoins de la plante représentés dans chaque figure. **(3pts)**



Figure A

L'air	L'eau	Le soleil	La terre



Figure B

L'air	L'eau	Le soleil	La terre

B. Indique le(s) besoin(s) de la plante qui manque(nt) dans chaque cas. **(3pts)**

L'eau **La terre** **Le soleil**

- **La figure A :**
- **La figure B :**

LIVEWORKSHEETS