ASIE – populace

- **Asie je ……. kontinent s počtem asi …… mld. obyvatel.**
- **Žije zde 2/3 obyvatel naší planety. Nejlidnatější státy** jsou ……
- Zalidnění – nerovnoměrné (průměr 70 ob. /km2, až 1100 ob. /km2). Vyhledej v atlase nejvíce zalidněné oblasti ……, ……
- Nejméně osídlené oblasti Asie jsou ……, protože ……
- **Problémy** – vysoký přírůstek (Čína, Indie), obrovské metropole (Shanghai, Tókjó, Soul aj.), konflikty (……) a chudoba.
- **Od r. 3500 př. n.l. kolébka vyspělých civilizací (……)** Portugalci a Angličané (I……) , Nizozemci (Indonésie), Francie (Indočína).Po druhé světové válce dochází k DEKOLONIZACI / samostatnost býv. kolonií/.
- **Tento největší kontinent je velmi různorodý a pestrý:**

1. Rasy - převažuje zde žlutá rasa (mongoloidní) + bílá (europoidní) a míšenci

Poznej , z které části Asie jsou tito lidé?

…… …… …… …… …… ……

2. Náboženství (křesťanství, islám, hinduismus, buddhismus , judaismus, aj.)

Utvoř trojice : obrázek – obrázek – náboženství!



3. Druhy písma (arabské písmo, čínské znakové, hebrejština, azbuka, latinka).

4. Jazyky (Indoevropské, Kavkazské, Altajské, Uralské, Semitohamitské,…).

LIVEWORKSHEETS

ASIE – populace

- **Doplň do mapy největší města Asie!**

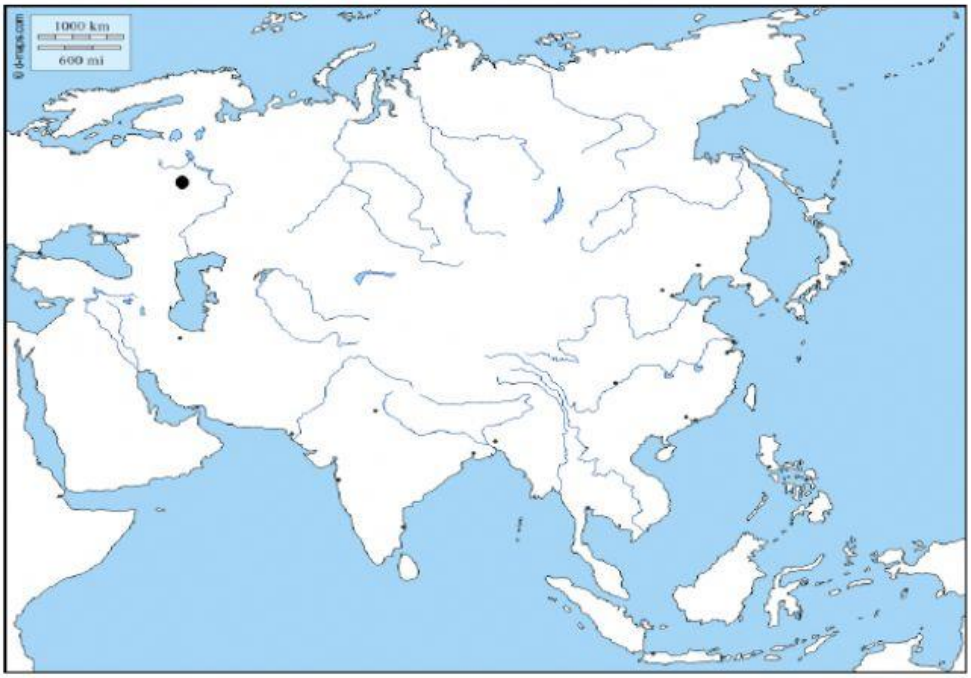

1. Tokio
2. Šanghaj
3. Peking
4. Moskva
5. Jakarta
6. Soul
7. Bombaj
8. Kalkata
9. Singapur
10. Hongkong
11. Dhaka
12. Istanbul
13. Karáčí

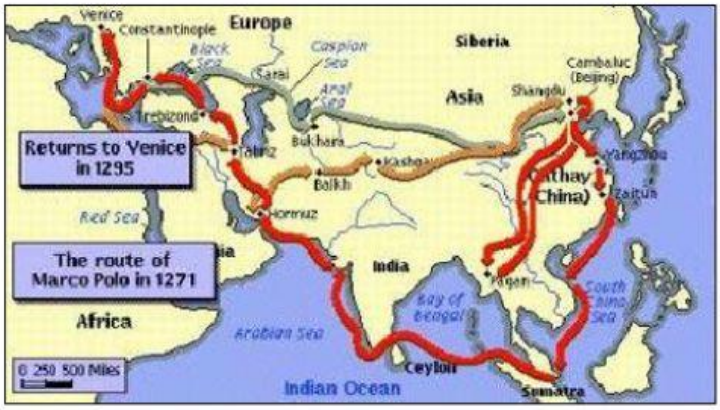


tibetský mnich

Bibi Aishi(18), která byla znetvořena vojáky Talibanu v Afghánistánu

barmská žena

LIVEWORKSHEETS