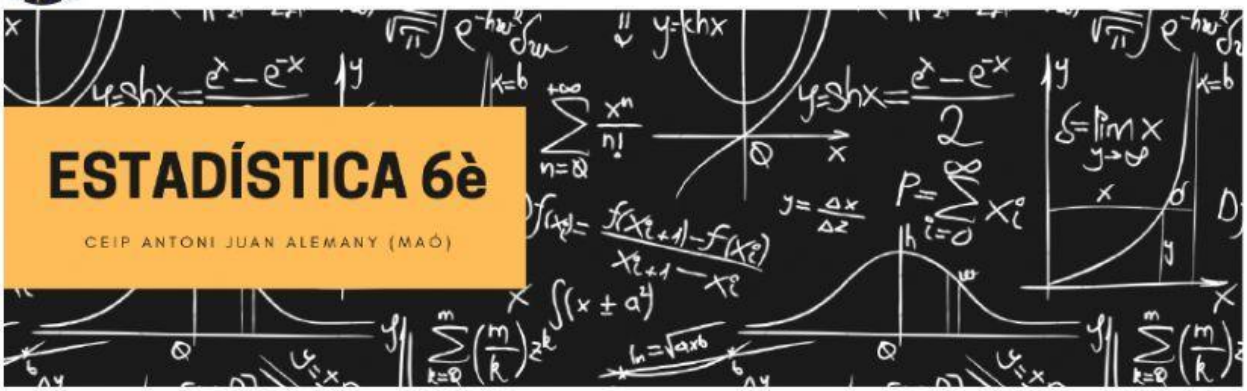

GRÀFIC DE SECTORS

1. **Observa aquest gràfic de sectors sobre les notes finals d'un grup de sisè de 25 alumnes i respon a les preguntes:**

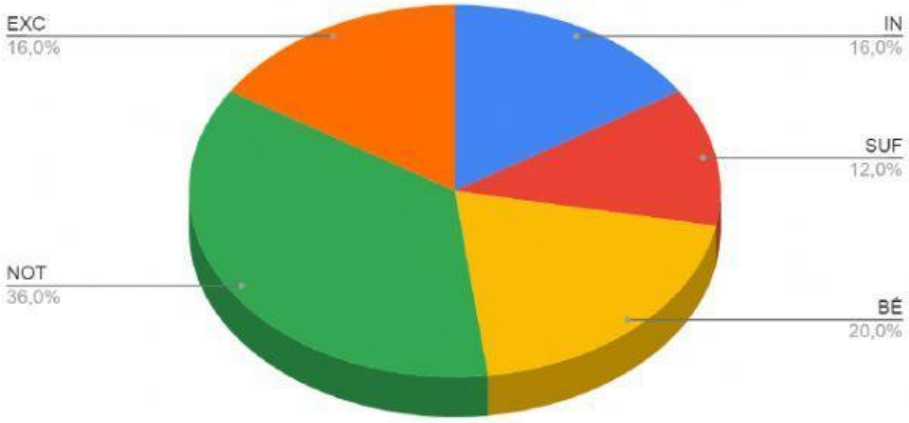

a) **Quin percentatge de suspesos hi ha?: %**

b) **Quin percentatge de notables i excel.lents hi ha?: %**

c) **Quina % de diferència hi ha entre notable i bé?: %**

d) **Quins dos sectors has d'ajuntar per tenir el mateix % que el notable?:**

Excel.lent i insuficient Excel.lent i suficient Excel.lent i bé

Insuficient i suficient Insuficient i bé Suficient i bé

LIVEWORKSHEETS

2. Observa bé aquest gràfic de sectors i escriu a la tercera columna la lletra relacionada :

MASCOTES A CASA	FREQÜÈNCIA ABSOLUTA	LLETRA RELACIONADA
CA	4	
MOIX	6	
CONILL	4	
CANARI	3	
HÀMSTER	6	

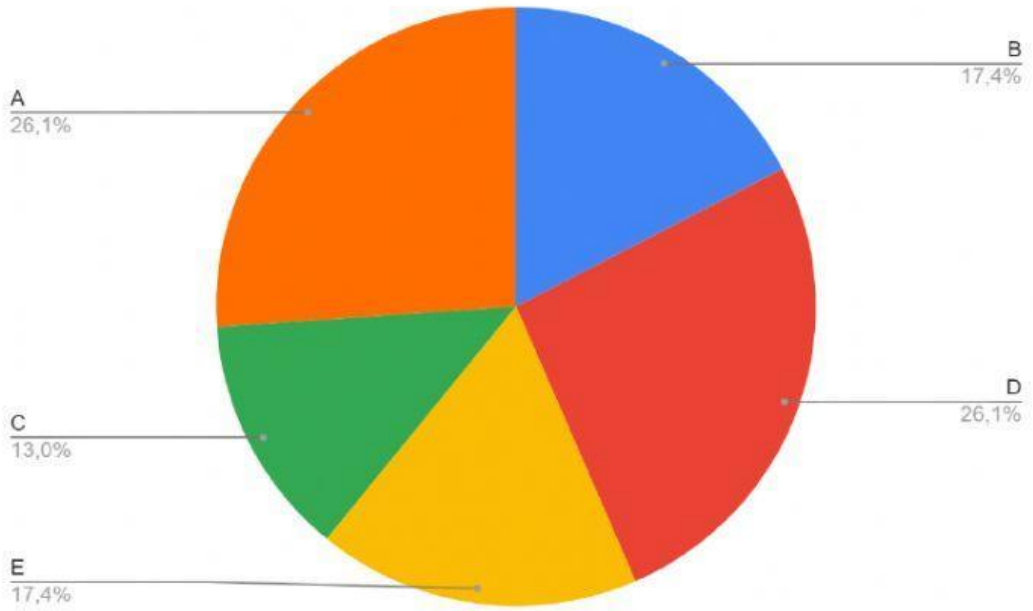

LIVEWORKSHEETS

3. A l'escola som 250 alumnes. Observa aquest gràfic i completa la taula calculant quants alumnes hi ha a cada cicle. Després contesta a les preguntes:

CICLE	NOMBRE D'ALUMNES
ED. INFANTIL	
1R CICLE	
2N CICLE	
3R CICLE	

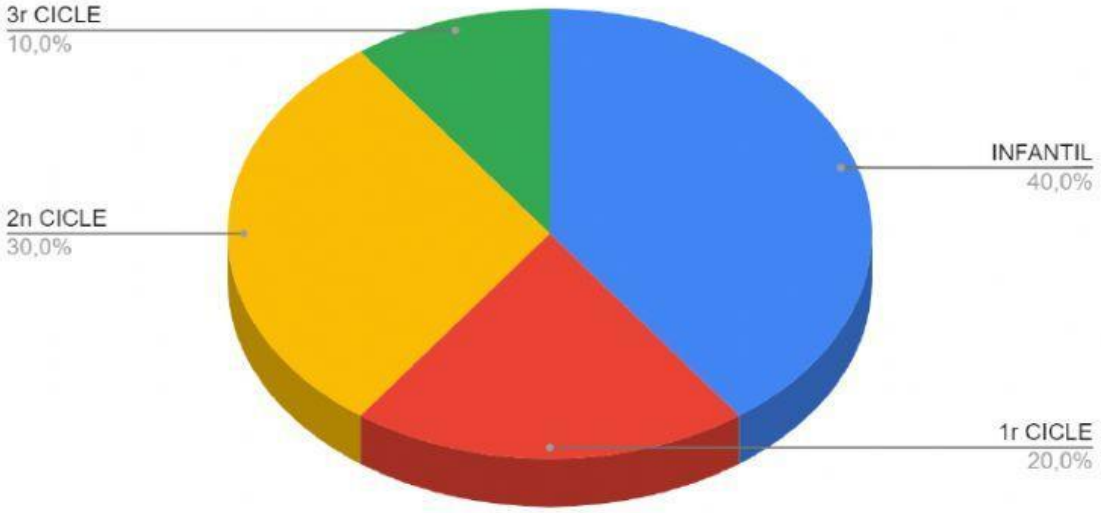

a) A quin cicle hi ha més alumnes?:

b) Quina diferència d'alumnes hi ha entre el primer i el tercer cicle?: alumnes

c) Calcula el percentatge d'alumnes que sumen els tres cicles de Primària junts: %

LIVEWORKSHEETS