وزارة التربية والتعليم
مجلس 1 نطاق 3
مدرسة البريرات للتعليم الأساسي ح2

الصف السادس
المادة : الرياضيات
موضوع الدرس: الحجم ومساحة السطح للأشكال المركبة

الاسم: الشعبة:

أوجد حجم الأشكال التالية ؟

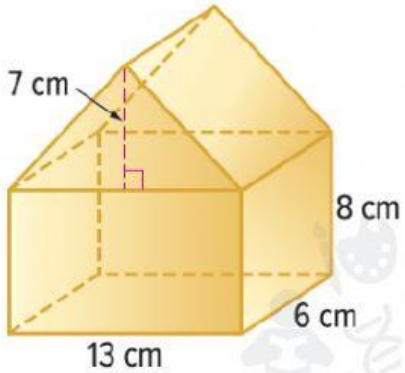

الحجم يساوي

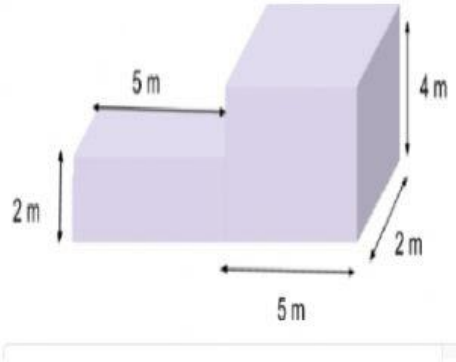

الحجم يساوي

اختر الإجابة الصحيحة ؟

احسب مساحة السطح الإجمالية للشكل

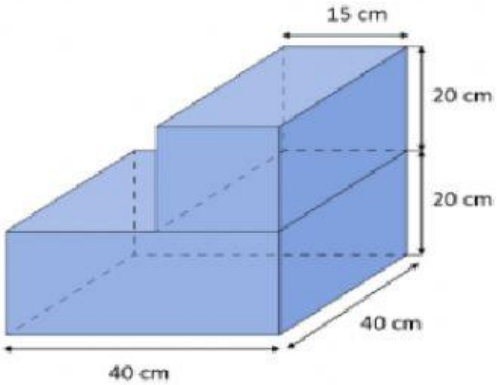

$A)8600\ cm^2$

$B)9441cm^2$

$C)7600cm^2$

$D)\ 6400cm^2$

LIVEWORKSHEETS