10 TESTAS

Data: .....

1 Padalyk skrituliukus į 4 lygias dalis ir parašyk dalybos veiksmą.

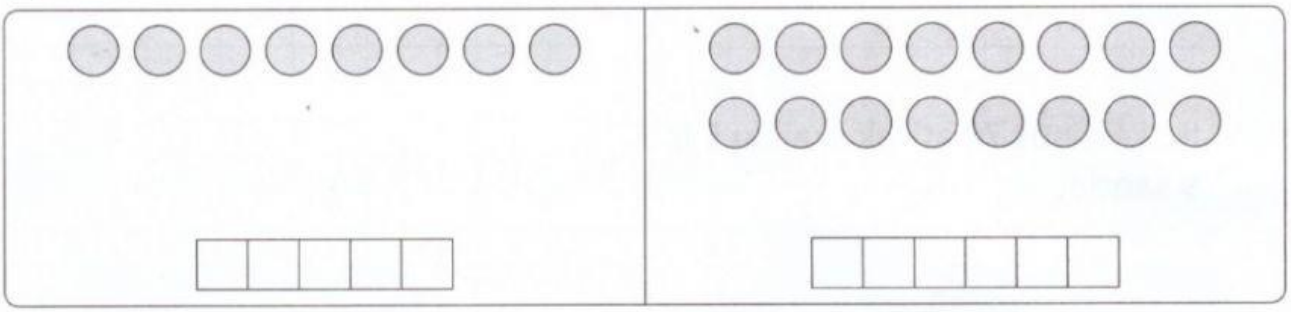

2 Už 7 rožes mama sumokėjo 21 Eur. Kiek kainavo viena rožė?

3 Apskaičiuok.

20 : 5 = ☐ 36 : 9 = ☐ 16 : 4 = ☐

24 : 6 = ☐ 40 : 5 = ☐ 35 : 5 = ☐

4 Dalinys yra 32, o daliklis – 8. Apskaičiuok dalmenį.

5 Senelė padalijo dviem savo vaikaičiams po lygiai 18 Eur. Andrius taupyklėje turėjo dar 7 Eur. Kiek eurų iš viso dabar turi Andrius?

LIVEWORKSHEETS

6 Apskaičiuok reiškinių reikšmes.

$71 - 16 : 4 = \square$

$100 - 8 : 1 = \square$

$16 + 60 : 10 = \square$

$42 + 8 : 8 = \square$

$40 : 10 \cdot 4 = \square$

$10 \cdot 8 : 1 = \square$

7 Skaičių 8 ir 3 sandaugą padalyk iš 4.

8



Kiek eurų kainuos penki suvenyrai?

Kiek eurų kainuos vienas suvenyras?

9 Parašyk tinkamus daliklius.

$30 : \square = 5$

$32 : \square = 4$

$36 : \square = 4$

$28 : \square = 7$

$40 : \square = 40$

$18 : \square = 3$

10 Nuspalvink tas figūras, kurios yra padalytos į lygias dalis.

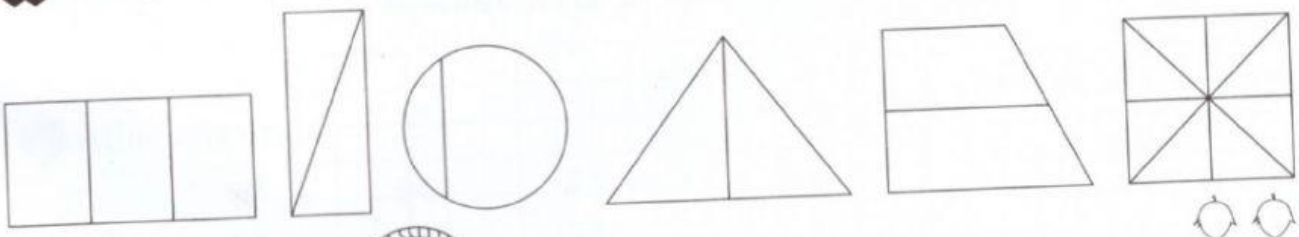

Tavo krepšelyje yra 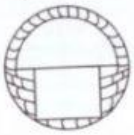 riešutėlių.

Reikia pasimokyti .....

.....

LIVEWORKSHEETS