b) Labelkan mikroorganisma di bawah dengan betul.

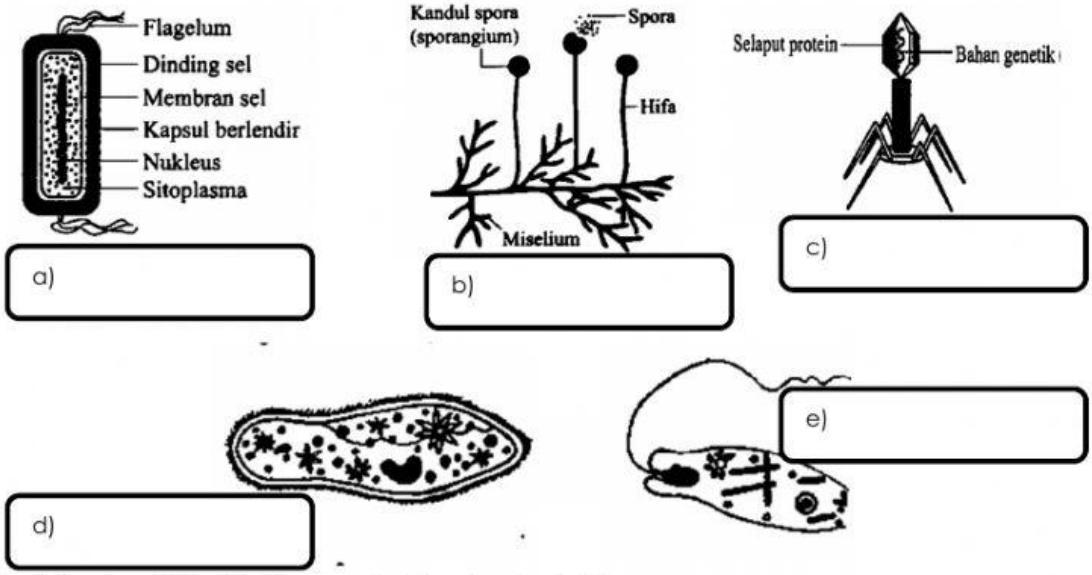

c) Nyatakan fungsi hifa (struktur yang terdapat pada kulat) .....

d) Nama cara pembiakan di bawah:

i)

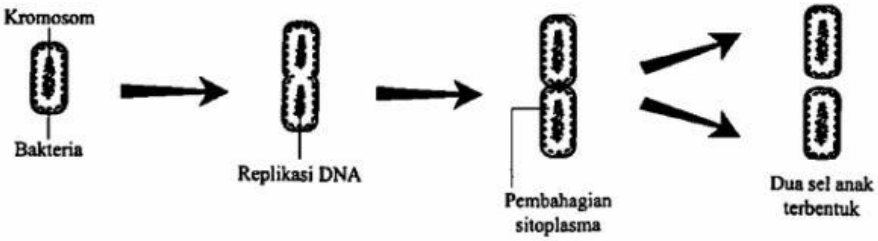

Cara pembiakan : .....

Mikroorganisma yang **tidak melakukan pembiakan ini** : .....

ii)

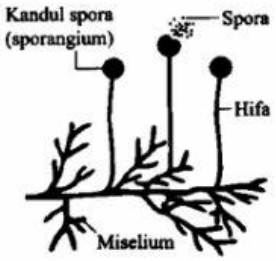

iii)



Cara pembiakan : .....
.....dan .....
tidak melakukan cara pembiakan ini

Cara pembiakan :.....

Mikroorganisma **tidak melakukan pembiakan ini**: .....

e) Apakah yang dimaksudkan oleh **mikroorganisma?**

.....

f) Bagaimana untuk melihat mikroorganisma?

Dengan menggunakan .....

g) Nyatakan mikroorganisma yang :

i) Paling seni : .....

ii) Paling besar : .....

cikguabadiSMKTP

LIVEWORKSHEETS

Latihan 2: **Soalan Objektif SPM Sebenar**

1 Rajah manakah yang menunjukkan alga?

A

B

C

D

2 Rajah menunjukkan sejenis mikroorganisma.

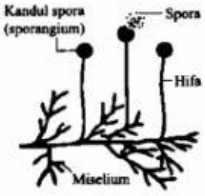

Dalam kumpulan manakah mikroorganisma ini?

A Kulat
B Virus
C Bakteria
D Protozoa

3 Mikroorganisma manakah yang boleh menjalankan fotosintesis?

A Alga **B** Virus **C** Kulat **D** Protozoa

4 Rajah menunjukkan contoh-contoh mikroorganisma.

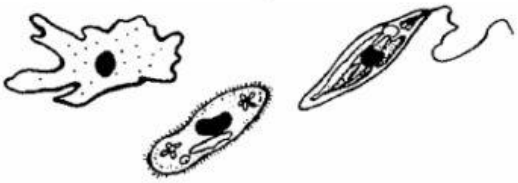

Kumpulan manakah yang mewakili mikroorganisma ini?

A Fungi **B** Virus **C** Protozoa **D** Bakteria

5 Mikroorganisma manakah yang hanya dapat diperhatikan dengan menggunakan mikroskop elektron?

A Alga **B** Fungi **C** Virus **D** Protozoa

6 Rajah menunjukkan satu kelas mikroorganisma.

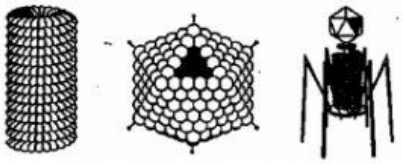

Apakah ciri bagi mikroorganisma tersebut?

A Multisel **B** Boleh berespirasi **C** Melakukan fotosintesis **D** Membiak dalam sel hidup

7 Penyakit manakah yang disebabkan oleh virus?

A Panau **B** Denggi **C** Taun **D** Gonorea

8 Mikroorganisma manakah yang boleh menjalankan proses fotosintesis?

A

B

C

D

9 Mikroorganisma yang manakah membiak melalui pembentukan spora?

A Virus **B** Kulat **C** Alga **D** Yis

cikguabadiSMKTP

LIVEWORKSHEETS