مجموعة نجوم الرياضيات - الإسم :

أوجِدْ مِساحَةَ كُلِّ شَكْلٍ.

3.

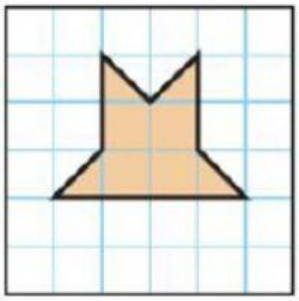

12

المِساحَةُ هِي _____ وحداتٍ مربّعةٍ.

4.



6

المِساحَةُ هِي _____ وحداتٍ مُربَّعةٍ.

7.

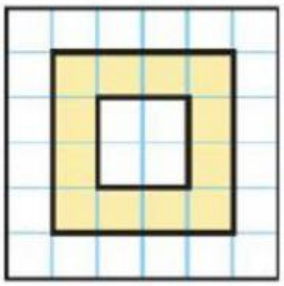

3

المِساحَةُ هِي _____ سنتيمترًا مُربّعًا.

LIVEWORKSHEETS